BSF 17 and 18 June 2023

Participant ID	
Participant Name	
Test Center Name	
Test Date	17/06/2023
Test Time	4:30 PM - 6:10 PM
Subject	Head Constable (Ministerial)

Section : **English Language**

Q.1 **Sentences of a paragraph are given below in jumbled order.**
Arrange the sentences in the correct order to form a meaningful and coherent paragraph.

A. He wondered why she had contacted him now.
B. They were mature adults now – very different people from the youngsters of years ago.
C. On the one hand, he was curious to see her again; on the other hand, he was not sure if Ellen was the same as he had known in the past.
D. As Sunday approached, George re-read Ellen's e-mail several times.

Ans
✗ 1. ABDC
✓ 2. DACB
✗ 3. CADB
✗ 4. BCAD

Question ID : **630680248846**
Option 1 ID : **630680965476**
Option 2 ID : **630680965475**
Option 3 ID : **630680965477**
Option 4 ID : **630680965478**
Status : **Not Answered**
Chosen Option : **--**

Q.2 **Choose the word that is opposite in meaning to the underlined word.**

The actor came to the function with <u>disheveled</u> hair.

Ans
✗ 1. rumpled
✗ 2. slovenly
✓ 3. tidy
✗ 4. messy

Question ID : **630680179104**
Option 1 ID : **630680694510**
Option 2 ID : **630680694511**
Option 3 ID : **630680694508**
Option 4 ID : **630680694509**
Status : **Not Answered**
Chosen Option : **--**

Q.3 Select the most appropriate synonym of the underlined word in the given sentence.
They have a reputation of being neither industrious nor intelligent.

Ans
- ✗ 1. Tolerant
- ✗ 2. Arrogant
- ✓ 3. Diligent
- ✗ 4. Negligent

Question ID : **63068085778**
Option 1 ID : **630680332575**
Option 2 ID : **630680332574**
Option 3 ID : **630680332573**
Option 4 ID : **630680332572**
Status : **Not Answered**
Chosen Option : --

Q.4 Select the most appropriate option that can substitute the underlined segment in the given sentence. If there is no need to substitute it, select 'No substitution'.

She is junior with me by three years.

Ans
- ✗ 1. than
- ✗ 2. No substitution
- ✓ 3. to
- ✗ 4. from

Question ID : **630680248841**
Option 1 ID : **630680965456**
Option 2 ID : **630680965458**
Option 3 ID : **630680965455**
Option 4 ID : **630680965457**
Status : **Not Answered**
Chosen Option : --

Q.5 Select the most appropriate option that can substitute the underlined segment in the given sentence. If there is no need to substitute it, select 'No substitution'.

She had briefly reached the finish line when she twisted her ankle.

Ans
- ✓ 1. almost
- ✗ 2. soon
- ✗ 3. No substitution
- ✗ 4. mostly

Question ID : **630680248840**
Option 1 ID : **630680965453**
Option 2 ID : **630680965452**
Option 3 ID : **630680965454**
Option 4 ID : **630680965451**
Status : **Not Answered**
Chosen Option : --

Q.6 **Select the correct ANTONYM of the given word.**

Dissent

Ans
1. Succumb ✗
2. Accede ✓
3. Infer ✗
4. Retrieve ✗

Question ID : **630680123918**
Option 1 ID : **630680480536**
Option 2 ID : **630680480534**
Option 3 ID : **630680480537**
Option 4 ID : **630680480535**
Status : **Not Answered**
Chosen Option : **--**

Q.7 **Parts of a sentence are given below in jumbled order. Arrange the parts in the correct order to form a meaningful sentence.**

A. heat waves occurring over many regions
B. there is a high probability of
C. from March to May
D. of central and adjoining northwest India

Ans
1. BADC ✓
2. CDBA ✗
3. BCDA ✗
4. CADB ✗

Question ID : **630680248842**
Option 1 ID : **630680965460**
Option 2 ID : **630680965461**
Option 3 ID : **630680965462**
Option 4 ID : **630680965459**
Status : **Not Answered**
Chosen Option : **--**

Q.8 **Select the most appropriate option to fill in the blanks.**

One day, a spider was weaving his web while the wind was playing a_____. Every time the wind would knock the spider down, he would get up and start again_____. He fell many times but the wind couldn't stop him from climbing back again.

Ans
1. spoilsport, undeterred ✓
2. crisis, unmoved ✗
3. truant, discouraged ✗
4. havoc, depressed ✗

Question ID : **630680248844**
Option 1 ID : **630680965470**
Option 2 ID : **630680965467**
Option 3 ID : **630680965469**
Option 4 ID : **630680965468**
Status : **Not Answered**
Chosen Option : **--**

Q.9 **Select the most appropriate meaning of the given proverb.**

To cast pearl before swine

Ans
✔ 1. To offer something valuable to someone who does not understand its value
✘ 2. To give something precious to someone
✘ 3. To offer something to a deserving candidate
✘ 4. To not understand the value of a honest person

Question ID : **63068069397**
Option 1 ID : **630680268259**
Option 2 ID : **630680268261**
Option 3 ID : **630680268260**
Option 4 ID : **630680268258**
Status : **Not Answered**
Chosen Option : **--**

Q.10 **What does 'the ball is in your court' mean?**

Ans
✔ 1. The decision is up to you
✘ 2. The secret has been revealed to you
✘ 3. Something valuable is in your possession
✘ 4. You have to struggle to achieve your goals

Question ID : **63068084482**
Option 1 ID : **630680327480**
Option 2 ID : **630680327481**
Option 3 ID : **630680327482**
Option 4 ID : **630680327483**
Status : **Not Answered**
Chosen Option : **--**

Q.11 **Select the most appropriate option to fill in the blanks.**

Renie was _____ for her sportsmanship. Renie's spirit was celebrated by everyone, even by the boys who had teased her. Renie _____ herself to never get affected by anyone's comments.

Ans
✘ 1. challenged, decided
✘ 2. ridiculed, agreed
✘ 3. encouraged, assured
✔ 4. appreciated, promised

Question ID : **630680248843**
Option 1 ID : **630680965464**
Option 2 ID : **630680965463**
Option 3 ID : **630680965465**
Option 4 ID : **630680965466**
Status : **Not Answered**
Chosen Option : **--**

Q.12 Select the option that correctly spells the misspelt word in the sentence.

Beatrice is one of the most delightful and talkitive characters of Shakespeare who often speaks her mind without concern about decorum.

Ans
1. decoram
2. charactors
3. talkative
4. deliteful

Question ID : **630680248845**
Option 1 ID : **630680965472**
Option 2 ID : **630680965474**
Option 3 ID : **630680965471**
Option 4 ID : **630680965473**
Status : **Not Answered**
Chosen Option : **--**

Q.13 Select the option that can be used as a one-word substitute for the given group of words.

One who makes maps

Ans
1. Calligrapher
2. Choreographer
3. Curator
4. Cartographer

Question ID : **630680123934**
Option 1 ID : **630680480594**
Option 2 ID : **630680480596**
Option 3 ID : **630680480597**
Option 4 ID : **630680480595**
Status : **Not Answered**
Chosen Option : **--**

Q.14 Select the correctly spelt word.

Ans
1. Eclesiastical
2. Ecclesiastical
3. Esclesiastical
4. Ecclesiastial

Question ID : **63068067075**
Option 1 ID : **630680259131**
Option 2 ID : **630680259132**
Option 3 ID : **630680259130**
Option 4 ID : **630680259133**
Status : **Not Answered**
Chosen Option : **--**

Q.15 **Select the most appropriate option that can substitute the underlined segment in the given sentence.**

I make sure that I take my medicines <u>at uniform intervals of time.</u>

Ans

✗ 1. usually

✗ 2. commonly

✗ 3. gradually

✓ 4. regularly

Question ID : **63068071549**
Option 1 ID : **630680276734**
Option 2 ID : **630680276735**
Option 3 ID : **630680276736**
Option 4 ID : **630680276737**
Status : **Not Answered**
Chosen Option : **--**

Q.16 **Select the option that can be used as a one-word substitute for the given group of words.**

A person whose job is to drive people around in a car

Ans

✓ 1. Chauffeur

✗ 2. Operator

✗ 3. Hacker

✗ 4. Motorist

Question ID : **630680123935**
Option 1 ID : **630680480600**
Option 2 ID : **630680480598**
Option 3 ID : **630680480601**
Option 4 ID : **630680480599**
Status : **Not Answered**
Chosen Option : **--**

Comprehension:

Read the following information carefully and answer the given questions.
Vedas, meaning "knowledge," were written in Vedic Sanskrit between 1500 and 500 BCE in the northwestern region the Indian Subcontinent. The Vedas were transmitted orally during the course of numerous subsequent generations before finally being archived in written form. Not much is known about the authors of the Vedas, as the focus is placed on the ideas found in Vedic tradition rather than those who originated the ideas. The oldest of the texts is the Rig Veda, and while it is not possible to establish precise dates for each of the ancient texts, it is believed the collection was completed by the end of the 2nd millennium BCE (Before Common Era).
There are four Indo-Aryan Vedas: the Rig Veda contains hymns about their mythology; the Sama Veda consists mainly of hymns about religious rituals; the Yajur Veda contains instructions for religious rituals; and the Atharva Veda consists of spells against enemies, sorcerers, and diseases. (Depending on the source consulted, these are spelled, for example, either Rig Veda or Rigveda.)
The Rig Veda is the largest and considered the most important of the collection, containing 1,028 hymns divided into 10 books called mandalas. The verses of the Sam Veda are taken almost completely from the Rig Veda, but arranged differently so they may be chanted. The Yajur Veda is divided into the White and Black halves and contains prose commentaries on how religious and sacrifices should be performed. The Atharva Veda includes charms and magic incantations written in the style of folklore.
Each Veda was further divided in two sections: the Brahmanas, instructions for religious rituals, and the Samhitas, mantras or hymns in praise of various deities. Modern linguists consider the metrical hymns of the Rigveda Samhita, the most ancient layer of text in the Vedas, to have been composed by many authors over several centuries of oral tradition.
Although the focus of the Vedas is on the message rather than the messengers, such as Buddha or Jesus Christ in their respective religions, the Vedic religion still held gods in high regard.
The Aryan pantheon of gods is described in great detail in the Rig Veda. However, the religious practices and deities are not uniformly consistent in these sacred texts, probably because the Aryans themselves were not a homogenous group. While spreading through the Indian Subcontinent, it is probable that their initial religious beliefs and practices were shaped by the absorption of local religious traditions.
According to the hymns of the Rig Veda, the most important deities were Agni, the god of Fire, intermediary between the gods and humans; Indra, the god of Heavens and War, protector of the Aryans against their enemies; Surya, the Sun god; Vayu, the god of Wind; and Prthivi, the goddess of Earth.

SubQuestion No : 17

Q.17 According to the passage, which of the following statements is correct?

Ans

✗ 1. The main focus has always been on who originated these Vedas.

✓ 2. The focus of the Vedas is on the message rather than the messengers.

✗ 3. The verses of the Rig Veda are taken from Sama Veda.

✗ 4. The Vedas were first transmitted in the written form.

Question ID : **630680248830**
Option 1 ID : **630680965412**
Option 2 ID : **630680965414**
Option 3 ID : **630680965413**
Option 4 ID : **630680965411**
Status : **Not Answered**
Chosen Option : **--**

Comprehension:

Read the following information carefully and answer the given questions.
Vedas, meaning "knowledge," were written in Vedic Sanskrit between 1500 and 500 BCE in the northwestern region the Indian Subcontinent. The Vedas were transmitted orally during the course of numerous subsequent generations before finally being archived in written form. Not much is known about the authors of the Vedas, as the focus is placed on the ideas found in Vedic tradition rather than those who originated the ideas. The oldest of the texts is the Rig Veda, and while it is not possible to establish precise dates for each of the ancient texts, it is believed the collection was completed by the end of the 2nd millennium BCE (Before Common Era).
There are four Indo-Aryan Vedas: the Rig Veda contains hymns about their mythology; the Sama Veda consists mainly of hymns about religious rituals; the Yajur Veda contains instructions for religious rituals; and the Atharva Veda consists of spells against enemies, sorcerers, and diseases. (Depending on the source consulted, these are spelled, for example, either Rig Veda or Rigveda.)
The Rig Veda is the largest and considered the most important of the collection, containing 1,028 hymns divided into 10 books called mandalas. The verses of the Sam Veda are taken almost completely from the Rig Veda, but arranged differently so they may be chanted. The Yajur Veda is divided into the White and Black halves and contains prose commentaries on how religious and sacrifices should be performed. The Atharva Veda includes charms and magic incantations written in the style of folklore.
Each Veda was further divided in two sections: the Brahmanas, instructions for religious rituals, and the Samhitas, mantras or hymns in praise of various deities. Modern linguists consider the metrical hymns of the Rigveda Samhita, the most ancient layer of text in the Vedas, to have been composed by many authors over several centuries of oral tradition.
Although the focus of the Vedas is on the message rather than the messengers, such as Buddha or Jesus Christ in their respective religions, the Vedic religion still held gods in high regard.
The Aryan pantheon of gods is described in great detail in the Rig Veda. However, the religious practices and deities are not uniformly consistent in these sacred texts, probably because the Aryans themselves were not a homogenous group. While spreading through the Indian Subcontinent, it is probable that their initial religious beliefs and practices were shaped by the absorption of local religious traditions.
According to the hymns of the Rig Veda, the most important deities were Agni, the god of Fire, intermediary between the gods and humans; Indra, the god of Heavens and War, protector of the Aryans against their enemies; Surya, the Sun god; Vayu, the god of Wind; and Prthivi, the goddess of Earth.

SubQuestion No : 18

Q.18 All the given statements regarding Rig Veda is correct EXCEPT:

Ans

✗ 1. It is divided into 10 books called mandalas.

✗ 2. The Rig Veda is considered to be the most important collection of hymns.

✗ 3. It is not possible to establish the precise date of its origin.

✓ 4. It is divided into the White and Black halves.

Question ID : **630680248831**
Option 1 ID : **630680965418**
Option 2 ID : **630680965416**
Option 3 ID : **630680965415**
Option 4 ID : **630680965417**
Status : **Not Answered**
Chosen Option : **--**

Comprehension:

Read the following information carefully and answer the given questions.
Vedas, meaning "knowledge," were written in Vedic Sanskrit between 1500 and 500 BCE in the northwestern region the Indian Subcontinent. The Vedas were transmitted orally during the course of numerous subsequent generations before finally being archived in written form. Not much is known about the authors of the Vedas, as the focus is placed on the ideas found in Vedic tradition rather than those who originated the ideas. The oldest of the texts is the Rig Veda, and while it is not possible to establish precise dates for each of the ancient texts, it is believed the collection was completed by the end of the 2nd millennium BCE (Before Common Era).
There are four Indo-Aryan Vedas: the Rig Veda contains hymns about their mythology; the Sama Veda consists mainly of hymns about religious rituals; the Yajur Veda contains instructions for religious rituals; and the Atharva Veda consists of spells against enemies, sorcerers, and diseases. (Depending on the source consulted, these are spelled, for example, either Rig Veda or Rigveda.)
The Rig Veda is the largest and considered the most important of the collection, containing 1,028 hymns divided into 10 books called mandalas. The verses of the Sam Veda are taken almost completely from the Rig Veda, but arranged differently so they may be chanted. The Yajur Veda is divided into the White and Black halves and contains prose commentaries on how religious and sacrifices should be performed. The Atharva Veda includes charms and magic incantations written in the style of folklore.
Each Veda was further divided in two sections: the Brahmanas, instructions for religious rituals, and the Samhitas, mantras or hymns in praise of various deities. Modern linguists consider the metrical hymns of the Rigveda Samhita, the most ancient layer of text in the Vedas, to have been composed by many authors over several centuries of oral tradition.
Although the focus of the Vedas is on the message rather than the messengers, such as Buddha or Jesus Christ in their respective religions, the Vedic religion still held gods in high regard.
The Aryan pantheon of gods is described in great detail in the Rig Veda. However, the religious practices and deities are not uniformly consistent in these sacred texts, probably because the Aryans themselves were not a homogenous group. While spreading through the Indian Subcontinent, it is probable that their initial religious beliefs and practices were shaped by the absorption of local religious traditions.
According to the hymns of the Rig Veda, the most important deities were Agni, the god of Fire, intermediary between the gods and humans; Indra, the god of Heavens and War, protector of the Aryans against their enemies; Surya, the Sun god; Vayu, the god of Wind; and Prthivi, the goddess of Earth.

SubQuestion No : 19

Q.19 What is the synonym of the word-'ancient' as used in the passage?

Ans

✗ 1. Juvenile

✗ 2. Unfamiliar

✓ 3. Venerable

✗ 4. Minor

Question ID : **630680248832**
Option 1 ID : **630680965419**
Option 2 ID : **630680965422**
Option 3 ID : **630680965420**
Option 4 ID : **630680965421**
Status : **Not Answered**
Chosen Option : **--**

Comprehension:

Read the following information carefully and answer the given questions.
Vedas, meaning "knowledge," were written in Vedic Sanskrit between 1500 and 500 BCE in the northwestern region the Indian Subcontinent. The Vedas were transmitted orally during the course of numerous subsequent generations before finally being archived in written form. Not much is known about the authors of the Vedas, as the focus is placed on the ideas found in Vedic tradition rather than those who originated the ideas. The oldest of the texts is the Rig Veda, and while it is not possible to establish precise dates for each of the ancient texts, it is believed the collection was completed by the end of the 2nd millennium BCE (Before Common Era).
There are four Indo-Aryan Vedas: the Rig Veda contains hymns about their mythology; the Sama Veda consists mainly of hymns about religious rituals; the Yajur Veda contains instructions for religious rituals; and the Atharva Veda consists of spells against enemies, sorcerers, and diseases. (Depending on the source consulted, these are spelled, for example, either Rig Veda or Rigveda.)
The Rig Veda is the largest and considered the most important of the collection, containing 1,028 hymns divided into 10 books called mandalas. The verses of the Sam Veda are taken almost completely from the Rig Veda, but arranged differently so they may be chanted. The Yajur Veda is divided into the White and Black halves and contains prose commentaries on how religious and sacrifices should be performed. The Atharva Veda includes charms and magic incantations written in the style of folklore.
Each Veda was further divided in two sections: the Brahmanas, instructions for religious rituals, and the Samhitas, mantras or hymns in praise of various deities. Modern linguists consider the metrical hymns of the Rigveda Samhita, the most ancient layer of text in the Vedas, to have been composed by many authors over several centuries of oral tradition.
Although the focus of the Vedas is on the message rather than the messengers, such as Buddha or Jesus Christ in their respective religions, the Vedic religion still held gods in high regard.
The Aryan pantheon of gods is described in great detail in the Rig Veda. However, the religious practices and deities are not uniformly consistent in these sacred texts, probably because the Aryans themselves were not a homogenous group. While spreading through the Indian Subcontinent, it is probable that their initial religious beliefs and practices were shaped by the absorption of local religious traditions.
According to the hymns of the Rig Veda, the most important deities were Agni, the god of Fire, intermediary between the gods and humans; Indra, the god of Heavens and War, protector of the Aryans against their enemies; Surya, the Sun god; Vayu, the god of Wind; and Prthivi, the goddess of Earth.

SubQuestion No : 20

Q.20 The Atharva Veda consists of:

Ans

✗ 1. Instructions related to various sacrifice rituals.

✗ 2. Hymns about their mythology

✓ 3. Spells against enemies, sorcerers, and diseases.

✗ 4. Hymns about religious rituals.

Question ID : **630680248829**
Option 1 ID : **630680965407**
Option 2 ID : **630680965410**
Option 3 ID : **630680965408**
Option 4 ID : **630680965409**
Status : **Not Answered**
Chosen Option : **--**

Section : **Hindi Language**

Q.1 निम्नलिखित में से कौन सा शब्द तद्भव है?

Ans
✗ 1. बिंदु
✓ 2. बहन
✗ 3. बाहु
✗ 4. बंधन

Question ID : **630680248822**
Option 1 ID : **630680965386**
Option 2 ID : **630680965383**
Option 3 ID : **630680965385**
Option 4 ID : **630680965384**
Status : **Answered**
Chosen Option : **4**

Q.2 'पावक' का सही संधि-विच्छेद रूप चुनिए।

Ans
✗ 1. पा+वक
✗ 2. पौ+वक
✗ 3. पा+अंक
✓ 4. पौ+अक

Question ID : **63068071815**
Option 1 ID : **630680277730**
Option 2 ID : **630680277731**
Option 3 ID : **630680277732**
Option 4 ID : **630680277733**
Status : **Answered**
Chosen Option : **4**

Q.3 निम्नलिखित विकल्पों में से कौनसा विकल्प 'अंतरंग' शब्द का विलोम शब्द है?

Ans
✗ 1. बदरंग
✗ 2. सतरंगी
✓ 3. बहिरंग
✗ 4. नारंगी

Question ID : **630680123244**
Option 1 ID : **630680477867**
Option 2 ID : **630680477868**
Option 3 ID : **630680477866**
Option 4 ID : **630680477869**
Status : **Answered**
Chosen Option : **3**

Q.4 'अपनी नींद सोना, अपनी नींद जगना' लोकोक्ति का अर्थ निम्न में से होगा-

Ans
✗ 1. निकम्मा होना
✗ 2. बेपरवाह होना
✓ 3. पूर्ण स्वतंत्र होना
✗ 4. स्वार्थी होना

Question ID : **630680123585**
Option 1 ID : **630680479225**
Option 2 ID : **630680479223**
Option 3 ID : **630680479222**
Option 4 ID : **630680479224**
Status : **Answered**
Chosen Option : **3**

Q.5 'श्रमदान' का सही समास विग्रह क्या है?

Ans
✗ 1. श्रम के लिए दान
✗ 2. श्रम से दान
✓ 3. श्रम का दान
✗ 4. श्रम को दान

Question ID : **630680248827**
Option 1 ID : **630680965406**
Option 2 ID : **630680965405**
Option 3 ID : **630680965403**
Option 4 ID : **630680965404**
Status : **Answered**
Chosen Option : **3**

Q.6 'दिन दूनी रात चौगुनी प्रगति हो रही है।' वाक्य के रेखांकित अंशों में संख्यावाचक विशेषण का कौन सा प्रकार है?

Ans
✓ 1. आवृत्तिवाचक
✗ 2. गणनावाचक
✗ 3. क्रमवाचक
✗ 4. समुदायवाचक

Question ID : **630680248825**
Option 1 ID : **630680965397**
Option 2 ID : **630680965395**
Option 3 ID : **630680965396**
Option 4 ID : **630680965398**
Status : **Answered**
Chosen Option : **4**

Q.7 'स्वर्गप्राप्त' में कौन सा समास है?

Ans
✗ 1. करणतत्पुरुष
✓ 2. कर्मतत्पुरुष
✗ 3. अपादान तत्पुरुष
✗ 4. सम्प्रदान तत्पुरुष

Question ID : **630680162638**
Option 1 ID : **630680629848**
Option 2 ID : **630680629849**
Option 3 ID : **630680629851**
Option 4 ID : **630680629850**
Status : **Answered**
Chosen Option : **4**

Q.8 'कनक' का अनेकार्थी शब्द नहीं है-

Ans
✓ 1. रेणु
✗ 2. गेहूँ
✗ 3. सोना
✗ 4. धतूरा

Question ID : **630680146090**
Option 1 ID : **630680565251**
Option 2 ID : **630680565250**
Option 3 ID : **630680565253**
Option 4 ID : **630680565252**
Status : **Answered**
Chosen Option : **1**

Q.9 निम्नलिखित में से 'गरल' का विलोम शब्द है -

Ans
✗ 1. जल
✓ 2. सुधा
✗ 3. विष
✗ 4. ठण्डा

Question ID : **63068056140**
Option 1 ID : **630680216553**
Option 2 ID : **630680216552**
Option 3 ID : **630680216551**
Option 4 ID : **630680216550**
Status : **Answered**
Chosen Option : **2**

Q.10 कौन सा विकल्प 'वात-बात' युग्म का सही अर्थ-युग्म है?

Ans
✗ 1. हवा – रोग
✓ 2. हवा – वचन
✗ 3. वचन – हवा
✗ 4. रोग – वचन

Question ID : **630680248823**
Option 1 ID : **630680965389**
Option 2 ID : **630680965388**
Option 3 ID : **630680965387**
Option 4 ID : **630680965390**
Status : **Answered**
Chosen Option : **2**

Q.11 'रामकहानी' में कौन सा समास है?

Ans
✗ 1. अव्ययीभाव
✓ 2. तत्पुरुष
✗ 3. द्वंद्व
✗ 4. द्विगु

Question ID : **630680248826**
Option 1 ID : **630680965402**
Option 2 ID : **630680965401**
Option 3 ID : **630680965399**
Option 4 ID : **630680965400**
Status : **Answered**
Chosen Option : **2**

Q.12 आधी-अधूरी इच्छा से किया गया कार्य कभी पूर्ण नहीं होता है। इस वाक्य में 'इच्छा' का प्रयोग किया गया है। निम्नलिखित में से जो शब्द इसका पर्यायवची नहीं है उसका चयन कीजिए--

Ans
✓ 1. मोह
✗ 2. ईप्सा
✗ 3. अभिलाषा
✗ 4. चाह

Question ID : **630680111332**
Option 1 ID : **630680431157**
Option 2 ID : **630680431154**
Option 3 ID : **630680431155**
Option 4 ID : **630680431156**
Status : **Answered**
Chosen Option : **2**

Q.13 निम्नलिखित वाक्यांश के लिए सार्थक शब्द का चयन कीजिए-
जो विधि या कानून के विरुद्ध हो

Ans
✗ 1. वैदिक
✗ 2. विधिवान
✓ 3. अवैध
✗ 4. विरुद्धवाद

Question ID : **63068055601**
Option 1 ID : **630680214417**
Option 2 ID : **630680214414**
Option 3 ID : **630680214415**
Option 4 ID : **630680214416**
Status : **Answered**
Chosen Option : **3**

Q.14 'भयंकर' का सही संधि-विच्छेद रूप नीचे दिए विकल्पों में से चुनिए।

Ans
✗ 1. भय+कर
✗ 2. भयन्+कर
✗ 3. भयंकर
✓ 4. भयम्+कर

Question ID : **63068071821**
Option 1 ID : **630680277754**
Option 2 ID : **630680277756**
Option 3 ID : **630680277757**
Option 4 ID : **630680277755**
Status : **Answered**
Chosen Option : **4**

Q.15 'बिल्ली छत _____ चढ़ रही है।' -वाक्य के रिक्त स्थान की पूर्ति के लिए उचित कारक का चयन करें-

Ans
✗ 1. को
✓ 2. पर
✗ 3. में
✗ 4. से

Question ID : **630680248824**
Option 1 ID : **630680965392**
Option 2 ID : **630680965393**
Option 3 ID : **630680965391**
Option 4 ID : **630680965394**
Status : **Answered**
Chosen Option : **2**

Q.16 मुहावरा 'अंधे को दिया दिखाना' का उचित अर्थ क्या होगा?

Ans

✗ 1. अंधा होना

✗ 2. सहायता करना

✗ 3. सत्य को न पहचानना

✓ 4. व्यर्थ कार्य करना

Question ID : **630680148276**
Option 1 ID : **630680573778**
Option 2 ID : **630680573777**
Option 3 ID : **630680573779**
Option 4 ID : **630680573776**
Status : **Answered**
Chosen Option : **4**

Comprehension:

नगर हमारा प्राकृतिक निवास-स्थान नहीं है। मनुष्य की काम-धंधे की आवश्यकताओं एवं इच्छाओं से हमने नगरों में निवास कर लिया है। परमात्मा की यह इच्छा कदापि नहीं थी कि हम विश्व में आकर ईंट, लकड़ी तथा पत्थरों की गोदी में पलकर मनुष्य बनें। हमारे कार्यालयों तथा नगरों के साथ फल, फूल, पत्ते, चाँद, सूरज आदि का कदापि कोई संबंध नहीं है। यह नगर हमें रस से परिपूर्ण प्रकृति की गोदी से छीनकर अपने तपे हुए पेट में डालकर पचा डालते हैं एवं झुलसा देते हैं। परंतु जिन व्यक्तियों को इनमें रहने का स्वभाव पड़ गया है और जो सदा व्यापार के नशे में लीन रहते हैं वे धीरे-धीरे अपने वास्तविक स्वभाव तथा अपनी प्रकृति को नष्ट करके इस विशाल जगत से पृथक् होते चले जाते हैं।

SubQuestion No : 17

Q.17 गद्यांश से हमें संदेश मिलता है-

Ans

✗ 1. पर्यावरण संरक्षण का

✗ 2. नगरों में सुख-सुविधा जुटाने का

✗ 3. वृक्षारोपण का

✓ 4. प्रकृति के निकट रहने का

Question ID : **630680127831**
Option 1 ID : **630680495480**
Option 2 ID : **630680495481**
Option 3 ID : **630680495483**
Option 4 ID : **630680495482**
Status : **Answered**
Chosen Option : **4**

Comprehension:

नगर हमारा प्राकृतिक निवास-स्थान नहीं है। मनुष्य की काम-धंधे की आवश्यकताओं एवं इच्छाओं से हमने नगरों में निवास कर लिया है। परमात्मा की यह इच्छा कदापि नहीं थी कि हम विश्व में आकर ईंट, लकड़ी तथा पत्थरों की गोदी में पलकर मनुष्य बनें। हमारे कार्यालयों तथा नगरों के साथ फल, फूल, पत्ते, चाँद, सूरज आदि का कदापि कोई संबंध नहीं है। यह नगर हमें रस से परिपूर्ण प्रकृति की गोदी से छीनकर अपने तपे हुए पेट में डालकर पचा डालते हैं एवं झुलसा देते हैं। परंतु जिन व्यक्तियों को इनमें रहने का स्वभाव पड़ गया है और जो सदा व्यापार के नशे में लीन रहते हैं वे धीरे-धीरे अपने वास्तविक स्वभाव तथा अपनी प्रकृति को नष्ट करके इस विशाल जगत से पृथक् होते चले जाते हैं।

SubQuestion No : 18

Q.18 'जो सदा व्यापार के नशे में लीन रहते है' वे-

Ans

✔ 1. विशाल जगत से पृथक् होते जाते हैं

✘ 2. प्रकृति से प्रेम करते है

✘ 3. अपने को झुलसा देते हैं

✘ 4. प्रकृति को नष्ट करते हैं

Question ID : **630680127830**
Option 1 ID : **630680495479**
Option 2 ID : **630680495477**
Option 3 ID : **630680495478**
Option 4 ID : **630680495476**
Status : **Answered**
Chosen Option : **1**

Comprehension:

नगर हमारा प्राकृतिक निवास-स्थान नहीं है। मनुष्य की काम-धंधे की आवश्यकताओं एवं इच्छाओं से हमने नगरों में निवास कर लिया है। परमात्मा की यह इच्छा कदापि नहीं थी कि हम विश्व में आकर ईंट, लकड़ी तथा पत्थरों की गोदी में पलकर मनुष्य बनें। हमारे कार्यालयों तथा नगरों के साथ फल, फूल, पत्ते, चाँद, सूरज आदि का कदापि कोई संबंध नहीं है। यह नगर हमें रस से परिपूर्ण प्रकृति की गोदी से छीनकर अपने तपे हुए पेट में डालकर पचा डालते हैं एवं झुलसा देते हैं। परंतु जिन व्यक्तियों को इनमें रहने का स्वभाव पड़ गया है और जो सदा व्यापार के नशे में लीन रहते हैं वे धीरे-धीरे अपने वास्तविक स्वभाव तथा अपनी प्रकृति को नष्ट करके इस विशाल जगत से पृथक् होते चले जाते हैं।

SubQuestion No : 19

Q.19 नगरों में निवास का कारण है-

Ans

✔ 1. काम-धंधे की आवश्यकता

✘ 2. प्रकृति से दूरी

✘ 3. वास्तविक स्वभाव

✘ 4. परमात्मा की इच्छा

Question ID : **630680127829**
Option 1 ID : **630680495474**
Option 2 ID : **630680495475**
Option 3 ID : **630680495473**
Option 4 ID : **630680495472**
Status : **Answered**
Chosen Option : **1**

Comprehension:

नगर हमारा प्राकृतिक निवास-स्थान नहीं है। मनुष्य की काम-धंधे की आवश्यकताओं एवं इच्छाओं से हमने नगरों में निवास कर लिया है। परमात्मा की यह इच्छा कदापि नहीं थी कि हम विश्व में आकर ईंट, लकड़ी तथा पत्थरों की गोदी में पलकर मनुष्य बनें। हमारे कार्यालयों तथा नगरों के साथ फल, फूल, पत्ते, चाँद, सूरज आदि का कदापि कोई संबंध नहीं है। यह नगर हमें रस से परिपूर्ण प्रकृति की गोदी से छीनकर अपने तपे हुए पेट में डालकर पचा डालते हैं एवं झुलसा देते हैं। परंतु जिन व्यक्तियों को इनमें रहने का स्वभाव पड़ गया है और जो सदा व्यापार के नशे में लीन रहते हैं वे धीरे-धीरे अपने वास्तविक स्वभाव तथा अपनी प्रकृति को नष्ट करके इस विशाल जगत से पृथक् होते चले जाते हैं।

SubQuestion No : 20

Q.20 गद्यांश में मानव का प्राकृतिक निवास-स्थान किसे बताया गया है?

Ans

✗ 1. ईंट, पत्थर और लकड़ी की गोद

✗ 2. कार्यालय

✗ 3. नगर

✓ 4. प्रकृति की गोद

Question ID : **630680127828**
Option 1 ID : **630680495470**
Option 2 ID : **630680495471**
Option 3 ID : **630680495469**
Option 4 ID : **630680495468**
Status : **Answered**
Chosen Option : **4**

Section : **General Intelligence**

Q.1 निम्नलिखित में शब्दों के युग्म हैं जो एक निश्चित तरीके से एक दूसरे से संबंधित हैं। निम्नलिखित चार शब्द युग्मों में से तीन एकसमान हैं क्योंकि इनके मध्य का संबंध समान है और इस प्रकार वे एक समूह बनाते हैं। वह कौन-सा शब्द युग्म है जो उस समूह से संबंधित नहीं है?

Ans

✗ 1. उच्च-निम्न

✗ 2. गर्म-ठंडा

✗ 3. अमीर-गरीब

✓ 4. चाय-कॉफी

Question ID : **630680119993**
Option 1 ID : **630680465014**
Option 2 ID : **630680465015**
Option 3 ID : **630680465016**
Option 4 ID : **630680465017**
Status : **Answered**
Chosen Option : **4**

Q.2 दिए गए कथनों और निष्कर्षों को ध्यानपूर्वक पढ़ें। यह मानते हुए कि कथनों में दी गई जानकारी सत्य है, भले ही यह सामान्य रूप से ज्ञात तथ्यों से भिन्न प्रतीत होती हो, तय करें कि दिए गए निष्कर्षों में से कौन-सा/से निष्कर्ष, कथनों का तार्किक रूप से अनुसरण करता है/करते हैं।

कथन:
कोई भी संगीतकार, वास्तुकार नहीं है।
सभी क्रिकेटर, संगीतकार हैं।
सभी खिलाड़ी, वास्तुकार हैं।

निष्कर्ष:
I. कुछ वास्तुकार, क्रिकेटर हैं।
II. कोई खिलाड़ी, क्रिकेटर नहीं है।
III. कोई संगीतकार, खिलाड़ी नहीं है।

Ans
✗ 1. I और II दोनों निष्कर्ष अनुसरण करते हैं।
✓ 2. II और III दोनों निष्कर्ष अनुसरण करते हैं।
✗ 3. I और III दोनों निष्कर्ष अनुसरण करते हैं।
✗ 4. निष्कर्ष I, II और III अनुसरण करते हैं।

Question ID : **630680248908**
Option 1 ID : **630680965723**
Option 2 ID : **630680965725**
Option 3 ID : **630680965724**
Option 4 ID : **630680965726**
Status : **Answered**
Chosen Option : **2**

Q.3 किसी निश्चित कूट में, यदि '&' का अर्थ 'जोड़ना' है, '#' का अर्थ 'गुणा' है, '@' का अर्थ 'भाग' है और '$' का अर्थ 'घटाना' है, तो निम्नलिखित समीकरण का मान ज्ञात कीजिए।

45 & 35 $ (14 # 7) & 63 @ 9 # 5 $ (14 $ 11) = ?

Ans
✗ 1. 17
✗ 2. 27
✗ 3. 11
✓ 4. 14

Question ID : **630680248910**
Option 1 ID : **630680965731**
Option 2 ID : **630680965734**
Option 3 ID : **630680965733**
Option 4 ID : **630680965732**
Status : **Answered**
Chosen Option : **4**

Q.4 A, B, C, D, E और F नामक छ बॉक्स एक के ऊपर एक रखे गए हैं, लेकिन यह जरूरी नहीं कि वे इसी क्रम में हों। बॉक्स-A को बॉक्स-F के ठीक ऊपर रखा गया है। बॉक्स-E के नीचे केवल एक बॉक्स रखा गया है। बॉक्स-F के ऊपर केवल दो बॉक्स रखे गए हैं। बॉक्स-F और बॉक्स-E के बीच केवल बॉक्स-C रखा गया है। बॉक्स-D को बॉक्स-E के ठीक नीचे नहीं रखा गया है। कौन-सा बॉक्स सबसे ऊपर रखा गया है?

Ans
✗ 1. A
✗ 2. C
✗ 3. B
✓ 4. D

Question ID : **630680248907**
Option 1 ID : **630680965722**
Option 2 ID : **630680965719**
Option 3 ID : **630680965720**
Option 4 ID : **630680965721**
Status : **Answered**
Chosen Option : **3**

Q.5 एक पासे के अलग-अलग फलकों पर छ: प्रतीक @, #, $, ^, & और * लिखे गए हैं। इस पासे की तीन अलग-अलग स्थितियाँ दिखाई गई हैं। उस प्रतीक का चयन कीजिए, जो * प्रतीक वाले फलक के विपरीत फलक पर होगा।

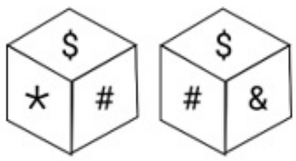

Ans
✓ 1. &
✗ 2. ^
✗ 3. #
✗ 4. @

Question ID : **630680149205**
Option 1 ID : **630680577091**
Option 2 ID : **630680577089**
Option 3 ID : **630680577088**
Option 4 ID : **630680577090**
Status : **Answered**
Chosen Option : **1**

Q.6 दिए गए विकल्पों में से वह संख्या चुनिए जो निम्नलिखित श्रृंखला में प्रश्नवाचक चिन्ह (?) को प्रतिस्थापित कर सकती है।
198, 149, 113, 88, ?

Ans
✗ 1. 74
✗ 2. 68
✓ 3. 72
✗ 4. 70

Question ID : **63068058900**
Option 1 ID : **630680227222**
Option 2 ID : **630680227223**
Option 3 ID : **630680227225**
Option 4 ID : **630680227224**
Status : **Answered**
Chosen Option : **3**

Q.7 संख्याओं और प्रतीकों के एक समूह को नीचे दिए गए कूट और उसके बाद दी गई शर्तों के अनुसार अक्षर कूट का उपयोग करके कूटबद्ध किया जाता है। दिए गए कूट और शर्तों का अध्ययन करें और निम्नलिखित प्रश्न का उत्तर दें।

संख्या/प्रतीक	4	$	5	6	*	#	3	%	@	8	&	9	*	7
कूट	R	W	E	P	J	H	L	N	B	C	F	U	T	M

शर्तें – (i) यदि दूसरा अवयव और अंतिम अवयव पूर्ण वर्ग हैं, तो दूसरे और अंतिम अवयवों को © के रूप में कूटबद्ध किया जाना है।
(ii) यदि पहला अवयव एक प्रतीक है और चौथा अवयव एक संख्या है, तो पहले अवयव को चौथे अवयव के कूट के रूप में कूटबद्ध किया जाना है।
(iii) यदि दूसरा और तीसरा दोनों अवयव प्रतीक हैं, तो इन दोनों (दूसरे और तीसरे अवयवों) के कूट आपस में बदलने होंगे।

निम्नलिखित समूह के लिए कूट क्या होगा?

7 $ @ 5 4

Ans
✗ 1. M © B E ©
✗ 2. M B F E R
✗ 3. R W B E R
✓ 4. M B W E R

Question ID : **630680179089**
Option 1 ID : **630680694451**
Option 2 ID : **630680694448**
Option 3 ID : **630680694449**
Option 4 ID : **630680694450**
Status : **Answered**
Chosen Option : **4**

Q.8 इस प्रश्न में, एक कथन के बाद दो निष्कर्ष दिए गए हैं। निर्णय करें कि दोनों में से कौन-सा/से निष्कर्ष सही है/हैं?
कथन: W < T = X ≤ J> S =U > B
निष्कर्ष:
I. T < U
II. S > X

Ans
✗ 1. केवल निष्कर्ष II सही है
✗ 2. केवल निष्कर्ष I सही है
✓ 3. न तो निष्कर्ष I और न ही निष्कर्ष II सही है
✗ 4. निष्कर्ष I और II दोनों सही हैं

Question ID : **630680157473**
Option 1 ID : **630680609421**
Option 2 ID : **630680609420**
Option 3 ID : **630680609423**
Option 4 ID : **630680609422**
Status : **Answered**
Chosen Option : **3**

Q.9 दिए गए विकल्पों में से अक्षरांकीय-समूह का चयन कीजिए जो निम्नलिखित श्रृंखला में प्रश्न चिह्न (?) को प्रतिस्थापित कर सकता है।
ZX1121, VT1242, RP1363, ?

Ans
✗ 1. LK1548
✗ 2. ML1648
✗ 3. JL1248
✓ 4. NL1484

Question ID : **63068048839**
Option 1 ID : **630680187904**
Option 2 ID : **630680187903**
Option 3 ID : **630680187905**
Option 4 ID : **630680187902**
Status : **Answered**
Chosen Option : **4**

Q.10 नीचे दी गई आकृतियों में कागज के एक टुकड़े को मोड़ने का क्रम और मुड़े हुए कागज को काटने का तरीका दर्शाया गया है। कागज खुलने पर यह कैसा दिखेगा?

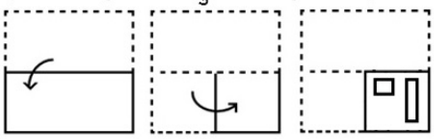

Ans

1. 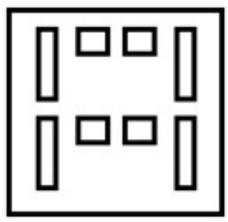

2. 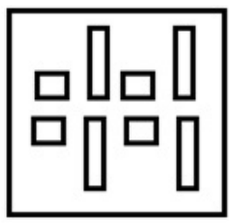

3. 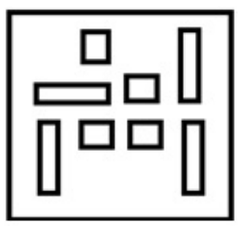

4. 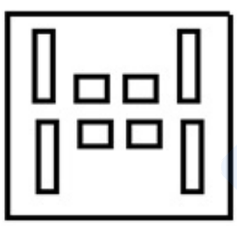

Question ID : **630680179112**
Option 1 ID : **630680694543**
Option 2 ID : **630680694540**
Option 3 ID : **630680694542**
Option 4 ID : **630680694541**
Status : **Answered**
Chosen Option : **4**

Prepp
Your Personal Exams Guide

Q.11 **E, L, A, R और G अक्षरों का प्रयोग करके अंग्रेजी के कम-से-कम चार अक्षरों वाले कितने अर्थपूर्ण शब्द बनाए जा सकते हैं, यदि प्रत्येक शब्द में हर अक्षर का केवल एक बार प्रयोग किया जाए?**

Ans
✗ 1. दो
✓ 2. तीन से अधिक
✗ 3. एक
✗ 4. तीन

Question ID : **630680146705**
Option 1 ID : **630680567660**
Option 2 ID : **630680567659**
Option 3 ID : **630680567658**
Option 4 ID : **630680567661**
Status : **Answered**
Chosen Option : **2**

Q.12 **तीन कथन I , II और III दिए गए हैं। कथनों में सभी बातों को सत्य मानते हुए, इन कथनों के बीच कारण और प्रभाव संबंध निर्धारित करें और तय करें कि कौन सा/से कथन कारण है/हैं और कौन सा/से कथन प्रभाव है/हैं।**

कथन:
I. मोटापे से, मधुमेह और इसी तरह की अन्य बीमारियों के मामले बढ़ रहे हैं।
II. फास्ट फूड में प्रतिऑक्सीकारक भी बहुत कम होते हैं और इनमें फाइबर भी कम होता है।
III. फास्ट फूड में शर्करा, नमक, प्रसंस्कृत सामग्री और ट्रांस-फैट अधिक होता है।

Ans
✗ 1. कथन I और II कारण हैं और कथन III प्रभाव है।
✓ 2. कथन I प्रभाव है और कथन II और III इसके कारण हैं।
✗ 3. कथनों के बीच कोई कारण और प्रभाव संबंध मौजूद नहीं है।
✗ 4. कथन I कारण है और कथन II और III इसके प्रभाव हैं।

Question ID : **630680248909**
Option 1 ID : **630680965729**
Option 2 ID : **630680965728**
Option 3 ID : **630680965730**
Option 4 ID : **630680965727**
Status : **Answered**
Chosen Option : **2**

Q.13 उस विकल्प का चयन कीजिए जो दिए गए संयोजन के दर्पण में निर्मित प्रतिबिंब से सर्वाधिक मिलता जुलता हो।

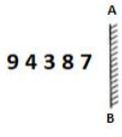

Ans
✗ 1. 
✓ 2. 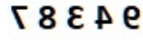
✗ 3. 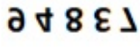
✗ 4. 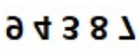

Question ID : **630680179110**
Option 1 ID : **630680694533**
Option 2 ID : **630680694535**
Option 3 ID : **630680694534**
Option 4 ID : **630680694532**
Status : **Answered**
Chosen Option : **2**

Q.14 दिए गए कथनों और निष्कर्षों को ध्यानपूर्वक पढ़िए। यह मानते हुए कि कथनों में दी गई सूचना सत्य है, भले ही यह सामान्यतः ज्ञात तथ्यों से भिन्न प्रतीत होती हो, निर्णय कीजिए कि दिए गए निष्कर्षों में से कौन सा/से निष्कर्ष कथनों का तार्किक रूप से अनुसरण करता/करते है/हैं।

कथन:
A. कुछ मछलियाँ, पक्षी हैं।
B. कोई बिल्ली, पक्षी नहीं हैं।

निष्कर्ष:
I. कोई पक्षी, बिल्ली नहीं हैं।
II. कुछ पक्षी, मछलियाँ हैं।

Ans
✔ 1. दोनों निष्कर्ष अनुसरण करते हैं।
✘ 2. केवल निष्कर्ष II अनुसरण करता है।
✘ 3. कोई भी निष्कर्ष अनुसरण नहीं करता है।
✘ 4. केवल निष्कर्ष I अनुसरण करता है।

Question ID : **630680179123**
Option 1 ID : **630680694586**
Option 2 ID : **630680694585**
Option 3 ID : **630680694587**
Option 4 ID : **630680694584**
Status : **Answered**
Chosen Option : **1**

Q.15 निम्नलिखित समीकरण में '?' के स्थान पर क्या आएगा, यदि '+' और '÷' को आपस में बदल दिया जाए और '×' और '-' को आपस में बदल दिया जाए?
56 × 16 + 8 ÷ 6 + 2 − 3 = ?

Ans
✘ 1. 39
✔ 2. 63
✘ 3. 6
✘ 4. 66

Question ID : **63068053392**
Option 1 ID : **630680205657**
Option 2 ID : **630680205655**
Option 3 ID : **630680205656**
Option 4 ID : **630680205654**
Status : **Answered**
Chosen Option : **2**

Q.16 उस विकल्प का चयन कीजिए, जिसमें दी गई आकृति सन्निहित है (घूर्णन की अनुमति नहीं है)।

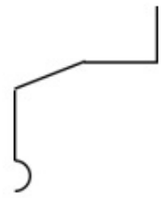

Ans

✗ 1.

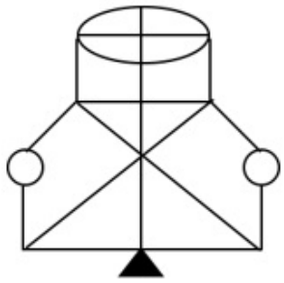

✓ 2.

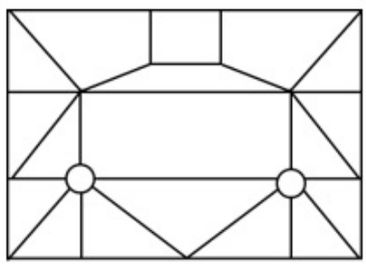

✗ 3.

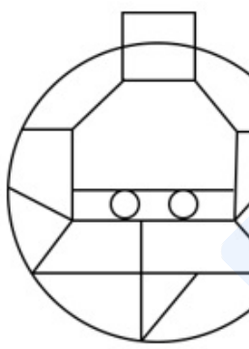

✗ 4.

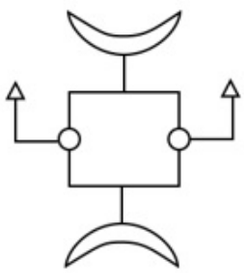

Question ID : **630680149197**
Option 1 ID : **630680577058**
Option 2 ID : **630680577057**
Option 3 ID : **630680577056**
Option 4 ID : **630680577059**
Status : **Answered**
Chosen Option : **2**

Q.17 दिए गए विकल्पों में से वह संख्या चुनिए जो निम्नलिखित श्रृंखला में प्रश्नवाचक चिन्ह (?) को प्रतिस्थापित कर सकती है।
558, 556, 550, 538, 518, ?

Ans
✗ 1. 486
✗ 2. 492
✓ 3. 488
✗ 4. 490

Question ID : **63068058898**
Option 1 ID : **630680227216**
Option 2 ID : **630680227214**
Option 3 ID : **630680227217**
Option 4 ID : **630680227215**
Status : **Answered**
Chosen Option : **3**

Q.18 एक निश्चित कूट भाषा में, 'CAD' को '314' के रूप में लिखा जाता है, और 'DIG' को '497' के रूप में लिखा जाता है। उस भाषा में 'BED' को कैसे लिखा जाएगा?

Ans
✗ 1. 225
✗ 2. 242
✗ 3. 245
✓ 4. 254

Question ID : **630680179114**
Option 1 ID : **630680694548**
Option 2 ID : **630680694549**
Option 3 ID : **630680694550**
Option 4 ID : **630680694551**
Status : **Answered**
Chosen Option : **4**

Q.19 नीचे दिए गए विकल्पों में से उस आकृति का चयन कीजिए जो प्रश्न चिह्न (?) को प्रतिस्थापित कर सकती है और पैटर्न को पूरा कर सकती है।



Ans

✗ 1.



✗ 2.



✗ 3.



✓ 4.



Question ID : **63068057722**
Option 1 ID : **630680222727**
Option 2 ID : **630680222726**
Option 3 ID : **630680222729**
Option 4 ID : **630680222728**
Status : **Answered**
Chosen Option : **4**

Q.20 संख्याओं और प्रतीकों के एक समूह को नीचे दिए गए कूट और उसके बाद दी गई शर्तों के अनुसार अक्षर कूट का उपयोग करके कूटबद्ध किया जाता है। दिए गए कूट और शर्तों का अध्ययन करें और निम्नलिखित प्रश्न का उत्तर दें।

संख्या/प्रतीक	6	$	9	&	+	2	5	@	8	#	3	%	7	4
कूट	G	T	R	F	E	K	M	B	Z	P	Q	J	V	U

शर्तें – (i) यदि दूसरा अवयव एक प्रतीक है और चौथा अवयव एक सम संख्या है, तो इन दोनों (दूसरे और चौथे अवयवों) के कूट आपस में बदलने होंगे।
(ii) यदि पहला और चौथा दोनों अवयव विषम संख्या हैं, तो इन दोनों (पहले और चौथे अवयवों) को © के रूप में कूटबद्ध किया जाना है।
(iii) यदि दूसरा और तीसरा दोनों अवयव प्रतीक हैं, तो तीसरे अवयव को दूसरे अवयव के कूट के रूप में कूटबद्ध किया जाना है।

निम्नलिखित समूह के लिए कूट क्या होगा?

8 @ # 3 %

Ans
✗ 1. Z P P Q J
✗ 2. Z Q P B J
✗ 3. © B P © J
✓ 4. Z B B Q J

Question ID : **630680179087**
Option 1 ID : **630680694441**
Option 2 ID : **630680694440**
Option 3 ID : **630680694442**
Option 4 ID : **630680694443**
Status : **Answered**
Chosen Option : **4**

Section : **Numerical Aptitude**

Q.1 उन दो कारों की चालों का अनुपात क्या है, जिनमें से एक 60 km/h की चाल से चलती है और दूसरी 5 m/s की चाल से चलती है?

Ans
✓ 1. 10 : 3
✗ 2. 3 : 10
✗ 3. 1 : 12
✗ 4. 12 : 1

Question ID : **630680103362**
Option 1 ID : **630680401708**
Option 2 ID : **630680401710**
Option 3 ID : **630680401709**
Option 4 ID : **630680401707**
Status : **Answered**
Chosen Option : **1**

Q.2 आठ वर्ष पहले, एक व्यक्ति की माँ की आयु उसके पुत्र की आयु की तीन गुनी थी। आठ वर्ष बाद, माँ की आयु उसके पुत्र की आयु की दोगुनी होगी। उनकी वर्तमान आयु का अनुपात क्या है?

Ans
✔ 1. 7 : 3
✘ 2. 4 : 7
✘ 3. 2 : 7
✘ 4. 7 : 2

Question ID : **630680156479**
Option 1 ID : **630680605578**
Option 2 ID : **630680605577**
Option 3 ID : **630680605576**
Option 4 ID : **630680605579**
Status : **Answered**
Chosen Option : **1**

Q.3 एक समकोण त्रिभुज में, यदि कर्ण 24 cm और 30° वाले कोण की सम्मुख भुजा 12 cm हो, तो 60° वाले कोण की सम्मुख भुजा की लंबाई कितनी होगी?

Ans
✔ 1. $12\sqrt{3}$
✘ 2. 18
✘ 3. $3\sqrt{3}$
✘ 4. $\frac{1}{8}$

Question ID : **630680248838**
Option 1 ID : **630680965444**
Option 2 ID : **630680965446**
Option 3 ID : **630680965445**
Option 4 ID : **630680965443**
Status : **Answered**
Chosen Option : **1**

Q.4 एक ट्रेन 120 m लंबे प्लेटफार्म को 5 सेकंड में और प्लेटफॉर्म पर खड़े किसी व्यक्ति को 3 सेकंड में पार करती है। ट्रेन की चाल ज्ञात कीजिए।

Ans
✘ 1. 60 km/h
✘ 2. 108 km/h
✘ 3. 120 km/h
✔ 4. 216 km/h

Question ID : **630680248834**
Option 1 ID : **630680965427**
Option 2 ID : **630680965428**
Option 3 ID : **630680965429**
Option 4 ID : **630680965430**
Status : **Answered**
Chosen Option : **4**

Q.5 45 cm और 30 cm विकर्ण वाले समचतुर्भुज का क्षेत्रफल ज्ञात करें।

Ans
✗ 1. 575cm^2
✗ 2. 475cm^2
✗ 3. 375cm^2
✓ 4. 675cm^2

Question ID : **63068079837**
Option 1 ID : **630680309374**
Option 2 ID : **630680309376**
Option 3 ID : **630680309375**
Option 4 ID : **630680309373**
Status : **Answered**
Chosen Option : **4**

Q.6 Rs. 8,000 की धनराशि पर 2 वर्षों में 4% प्रति वर्ष की ब्याज दर से चक्रवृद्धि ब्याज ज्ञात कीजिए, ब्याज अर्ध-वार्षिक रूप से चक्रवृद्धि किया जा रहा है।

Ans
✗ 1. Rs.843.65
✗ 2. Rs.765.35
✗ 3. Rs.742.37
✓ 4. Rs.659.46

Question ID : **630680108208**
Option 1 ID : **630680419897**
Option 2 ID : **630680419896**
Option 3 ID : **630680419899**
Option 4 ID : **630680419898**
Status : **Answered**
Chosen Option : **4**

Q.7 उनचास व्यक्ति एक कतार में खड़े हैं और उनका औसत वजन 66 kg है। यदि पहले 25 व्यक्तियों का औसत वजन 68 kg है और अंतिम 25 व्यक्तियों का औसत वजन 64 kg है, तो 25वें व्यक्ति का वजन (kg में) ज्ञात कीजिए।

Ans
✓ 1. 66
✗ 2. 65
✗ 3. 67
✗ 4. 64

Question ID : **630680115515**
Option 1 ID : **630680447412**
Option 2 ID : **630680447411**
Option 3 ID : **630680447413**
Option 4 ID : **630680447410**
Status : **Answered**
Chosen Option : **1**

Q.8 एक व्यक्ति एक निश्चित स्थान की यात्रा 30 km/h की चाल से करता है और 20 km/h की चाल से प्रारंभिक स्थान पर वापस आ जाता है। पूरी यात्रा के दौरान उसकी औसत चाल (km/h में) ज्ञात कीजिए।

Ans
✗ 1. 20
✓ 2. 24
✗ 3. 12
✗ 4. 48

Question ID : **630680107364**
Option 1 ID : **630680416821**
Option 2 ID : **630680416820**
Option 3 ID : **630680416823**
Option 4 ID : **630680416822**
Status : **Answered**
Chosen Option : **2**

Q.9 एक त्रिभुज PQR में, S और T क्रमशः PQ और PR पर इस प्रकार बिंदु हैं कि ST, QR के समांतर है। यदि PS = 16 cm, SQ = 14 cm और QR = 24 cm है, ST ज्ञात कीजिए।

Ans
✗ 1. 10.6 cm
✗ 2. 10.1 cm
✓ 3. 12.8 cm
✗ 4. 12.3 cm

Question ID : **630680248837**
Option 1 ID : **630680965441**
Option 2 ID : **630680965442**
Option 3 ID : **630680965439**
Option 4 ID : **630680965440**
Status : **Answered**
Chosen Option : **1**

Q.10 कैब के किराए का मूल्य तय की गई दूरी के अनुक्रमानुपाती है। जब दूरी 150 km है, तो मूल्य ₹750 होता है। दूरी 225 km होने पर मूल्य ज्ञात कीजिए।

Ans
✓ 1. ₹1,125
✗ 2. ₹1,130
✗ 3. ₹1,135
✗ 4. ₹1,120

Question ID : **630680145272**
Option 1 ID : **630680562071**
Option 2 ID : **630680562072**
Option 3 ID : **630680562073**
Option 4 ID : **630680562070**
Status : **Answered**
Chosen Option : **1**

Q.11 आशु अपने ग्राहकों को एक शर्ट पर 18% की छूट देने के बाद भी 25% का लाभ कमाता है। ₹700 अंकित मूल्य वाली शर्ट का वास्तविक क्रय मूल्य कितना है?

Ans
✗ 1. ₹458.20
✗ 2. ₹456.20
✗ 3. ₹457.20
✓ 4. ₹459.20

Question ID : **630680104353**
Option 1 ID : **630680405629**
Option 2 ID : **630680405627**
Option 3 ID : **630680405628**
Option 4 ID : **630680405630**
Status : **Answered**
Chosen Option : **4**

Q.12 20 वस्तुओं का क्रय मूल्य 25 वस्तुओं के विक्रय मूल्य के बराबर है। हानि प्रतिशत ज्ञात कीजिए।

Ans
✗ 1. 50%
✗ 2. 30%
✗ 3. 10%
✓ 4. 20%

Question ID : **630680107389**
Option 1 ID : **630680416921**
Option 2 ID : **630680416920**
Option 3 ID : **630680416922**
Option 4 ID : **630680416923**
Status : **Answered**
Chosen Option : **4**

Q.13 एक टंकी को 7 घंटे में भरा जा सकता है लेकिन इसकी पेंदी में रिसाव के कारण इसे भरने में 8 घंटे लगते हैं। यदि टंकी पूरी भरी हुई हो, तो रिसाव के जरिए इसे खाली होने में कितना समय लगेगा?

Ans
✗ 1. 30 घंटे
✗ 2. 28 घंटे
✓ 3. 56 घंटे
✗ 4. 15 घंटे

Question ID : **630680112241**
Option 1 ID : **630680434693**
Option 2 ID : **630680434690**
Option 3 ID : **630680434691**
Option 4 ID : **630680434692**
Status : **Answered**
Chosen Option : **3**

Q.14 $\sqrt{\frac{2+2\tan^2\theta}{1+\cot^2\theta}}$ का मान ज्ञात कीजिए; जहाँ θ न्यून है।

Ans
✗ 1. $\sqrt{2}\cot\theta$
✗ 2. $2\cot\theta$
✓ 3. $\sqrt{2}\tan\theta$
✗ 4. $2\tan\theta$

Question ID : **630680248839**
Option 1 ID : **630680965448**
Option 2 ID : **630680965450**
Option 3 ID : **630680965447**
Option 4 ID : **630680965449**
Status : **Answered**
Chosen Option : **1**

Q.15 निम्नांकित पाई-चार्ट 6 वर्षों की अवधि में दो ब्रांड A और B की बिक्री (हजार इकाइयों में) दर्शाते हैं। ज्ञात कीजिए कि वर्ष 2013-2015 में ब्रांड B की बिक्री, वर्ष 2011-2013 में ब्रांड A की बिक्री से कितना प्रतिशत अधिक है (दो दशमलव स्थानों तक शुद्ध मान)।



Brand A = ब्रांड A



Brand B = ब्रांड B

Ans
✗ 1. 4.10%
✗ 2. 5%
✓ 3. 3.57%
✗ 4. 2.60%

Question ID : **630680248835**
Option 1 ID : **630680965433**
Option 2 ID : **630680965434**
Option 3 ID : **630680965432**
Option 4 ID : **630680965431**
Status : **Answered**
Chosen Option : **3**

Q.16 यदि दो संख्याओं का अनुपात 5 : 6 है और उनका लघुत्तम समापवर्त्य (LCM) 630 है, तो उनका महत्तम समापवर्तक (HCF) ज्ञात करें।

Ans
1. 16
2. 24
3. 18
4. 21

Question ID : **630680248833**
Option 1 ID : **630680965423**
Option 2 ID : **630680965425**
Option 3 ID : **630680965424**
Option 4 ID : **630680965426**
Status : **Answered**
Chosen Option : **4**

Q.17 एक व्यक्ति अपनी मासिक आय का 15% घर के किराए पर और शेष का 60% घरेलू खर्च पर खर्च करता है। यदि वह प्रति माह ₹3,400 की बचत करता है, तो उसकी प्रति माह कुल आय (₹ में) ज्ञात कीजिए।

Ans
1. ₹10,000
2. ₹9,500
3. ₹9,800
4. ₹11,000

Question ID : **630680115633**
Option 1 ID : **630680447883**
Option 2 ID : **630680447884**
Option 3 ID : **630680447885**
Option 4 ID : **630680447882**
Status : **Answered**
Chosen Option : **1**

Q.18 निम्नलिखित में से वह कौन-सी शर्त है, जहाँ दो रेखाएँ ax + by + c = 0 और lx + my + n = 0 के अनंत हल होंगे?

Ans
1. $\frac{a}{l} \neq \frac{b}{m} \neq \frac{c}{n}$
2. $\frac{a}{m} = \frac{b}{l} = \frac{c}{n}$
3. $\frac{a}{l} = \frac{b}{m} \neq \frac{c}{n}$
4. $\frac{a}{l} = \frac{b}{m} = \frac{c}{n}$

Question ID : **630680248836**
Option 1 ID : **630680965435**
Option 2 ID : **630680965436**
Option 3 ID : **630680965437**
Option 4 ID : **630680965438**
Status : **Answered**
Chosen Option : **4**

Q.19 यदि दो उम्मीदवारों के बीच हुए चुनाव में 72 मत अवैध पाए गए। यदि विजयी उम्मीदवार ने वैध मतों का 54% प्राप्त किया और 96 मतों के अंतर से जीत गया, तो पंजीकृत मतदाताओं की कुल संख्या ज्ञात कीजिए।

Ans
✗ 1. 1200
✗ 2. 1472
✓ 3. 1272
✗ 4. 1300

Question ID : **630680114256**
Option 1 ID : **630680442427**
Option 2 ID : **630680442429**
Option 3 ID : **630680442426**
Option 4 ID : **630680442428**
Status : **Answered**
Chosen Option : **3**

Q.20 ₹1,55,000 पर 3 वर्ष के लिए 10% प्रति वर्ष की दर से वार्षिक आधार पर चक्रवृद्धित ब्याज ज्ञात कीजिए।

Ans
✗ 1. ₹52,305
✓ 2. ₹51,305
✗ 3. ₹51,308
✗ 4. ₹51,306

Question ID : **630680103164**
Option 1 ID : **630680400915**
Option 2 ID : **630680400916**
Option 3 ID : **630680400918**
Option 4 ID : **630680400917**
Status : **Answered**
Chosen Option : **2**

Section : **Clerical Aptitude**

Q.1 उस सबसे उपयुक्त विकल्प का चयन करें जो दिए गए वाक्य में रेखांकित शब्द को प्रतिस्थापित कर सकता है।

Rabindranath Tagore Beach is the main beach in Karwar town, 50 km <u>between</u> Goa.

Ans
✓ 1. Before
✗ 2. Among
✗ 3. Under
✗ 4. Above

Question ID : **630680248898**
Option 1 ID : **630680965685**
Option 2 ID : **630680965683**
Option 3 ID : **630680965684**
Option 4 ID : **630680965686**
Status : **Answered**
Chosen Option : **2**

Q.2 दिए गए विकल्पों में से उस संख्या का चयन कीजिए, जो निम्नलिखित श्रृंखला में प्रश्नवाचक चिह्न (?) के स्थान पर आएगी।

15, 16, 18, 21, 25, ?

Ans
✗ 1. 31
✗ 2. 32
✗ 3. 29
✓ 4. 30

Question ID : **630680248889**
Option 1 ID : **630680965649**
Option 2 ID : **630680965650**
Option 3 ID : **630680965647**
Option 4 ID : **630680965648**
Status : **Answered**
Chosen Option : **4**

Q.3 गलत वर्तनी वाले शब्द का चयन कीजिए।

Ans
✓ 1. Vaccuum
✗ 2. Scissors
✗ 3. Sufficient
✗ 4. Remaining

Question ID : **630680248896**
Option 1 ID : **630680965676**
Option 2 ID : **630680965675**
Option 3 ID : **630680965677**
Option 4 ID : **630680965678**
Status : **Answered**
Chosen Option : **1**

Q.4 उस विकल्प का चयन कीजिए, जो तीसरे शब्द से ठीक उसी प्रकार संबंधित है, जिस प्रकार दूसरा शब्द, पहले शब्द से संबंधित है।

सुई : सिलाई करना :: ढाल : ?

Ans
✓ 1. रक्षा करना
✗ 2. पकड़ना
✗ 3. खोदना
✗ 4. तराशना

Question ID : **630680248892**
Option 1 ID : **630680965662**
Option 2 ID : **630680965659**
Option 3 ID : **630680965660**
Option 4 ID : **630680965661**
Status : **Answered**
Chosen Option : **1**

Q.5 दी गई संख्या, प्रतीक श्रृंखला के आधार पर नीचे दिए गए प्रश्न का उत्तर दीजिए।
(बाएं) 2 5 # # $ 1 @ * 7 & % 4 & 5 % 3 & 5 1 2 (दाएं)

ऐसे कितने प्रतीक हैं, जिनके ठीक पहले एक संख्या है और ठीक बाद भी एक संख्या है?

Ans
✔ 1. 3
✘ 2. 4
✘ 3. 2
✘ 4. 1

Question ID : **630680248897**
Option 1 ID : **630680965681**
Option 2 ID : **630680965682**
Option 3 ID : **630680965680**
Option 4 ID : **630680965679**
Status : **Answered**
Chosen Option : **1**

Q.6 दिए गए विकल्पों में से उस अक्षरांकीय-समूह का चयन कीजिए, जो निम्नलिखित श्रृंखला में प्रश्नवाचक चिह्न (?) के स्थान पर आएगा।

I3, H7, F15, C27, Y43, ?

Ans
✘ 1. U63
✘ 2. S59
✘ 3. T65
✔ 4. T63

Question ID : **630680248891**
Option 1 ID : **630680965658**
Option 2 ID : **630680965657**
Option 3 ID : **630680965655**
Option 4 ID : **630680965656**
Status : **Answered**
Chosen Option : **4**

Q.7 नीचे एक वाक्य के कुछ भाग अव्यवस्थित क्रम में दिए गए हैं। सार्थक वाक्य बनाने के लिए भागों को सही क्रम में व्यवस्थित कीजिए।

A. his subjects wisely
B. was a very kind and generous
C. king who looked after
D. everyone said that he

Ans
✘ 1. CBAD
✘ 2. DACB
✔ 3. DBCA
✘ 4. CABD

Question ID : **630680248890**
Option 1 ID : **630680965652**
Option 2 ID : **630680965653**
Option 3 ID : **630680965654**
Option 4 ID : **630680965651**
Status : **Answered**
Chosen Option : **4**

Q.8 निम्न कथनों को पढ़िए और उसके बाद दिए गए प्रश्नों के उत्तर दीजिए।

A+B का अर्थ है कि A, B का पिता है।
A-B का अर्थ है कि A, B का भाई है।
A*B का अर्थ है कि A, B की माता है।
A&B का अर्थ है कि A, B की बहन है।

निम्न में से किसका अर्थ है कि T, V का मामा/मौसा है?

Ans
✔ 1. T-R&S*V
✘ 2. V*S*R+T
✘ 3. T+S*R-V
✘ 4. V&R&S-T

Question ID : **630680248905**
Option 1 ID : **630680965714**
Option 2 ID : **630680965712**
Option 3 ID : **630680965711**
Option 4 ID : **630680965713**
Status : **Answered**
Chosen Option : **4**

Q.9 किसी निश्चित कूट भाषा में, 'THANKS' को 'TLOBIU' के रूप में कूटबद्ध किया जाता है और 'PLANES' को 'TFOBMQ' के रूप में कूटबद्ध किया जाता है। उसी भाषा में 'AIRBUS' को किस प्रकार कूटबद्ध किया जाएगा?

Ans
✘ 1. TVCBJS
✔ 2. TVCSJB
✘ 3. TVCQHZ
✘ 4. TVCSBJ

Question ID : **630680248893**
Option 1 ID : **630680965664**
Option 2 ID : **630680965665**
Option 3 ID : **630680965663**
Option 4 ID : **630680965666**
Status : **Answered**
Chosen Option : **2**

Q.10 यदि निम्नलिखित शब्दों को अंग्रेजी शब्दकोश में उनके क्रम के अनुसार व्यवस्थित किया जाए, तो इनमें से कौन-सा शब्द सबसे पहले आएगा?

1) Theftable
2) Thearchic
3) Theatrics
4) Theaceous
5) Theberges

Ans
✗ 1. 5
✗ 2. 2
✗ 3. 3
✓ 4. 4

Question ID : **630680248902**
Option 1 ID : **630680965702**
Option 2 ID : **630680965699**
Option 3 ID : **630680965700**
Option 4 ID : **630680965701**
Status : **Answered**
Chosen Option : **4**

Q.11 A, B, C, D और E पांच विद्यार्थी हैं जिन्हें XYZ ओलंपियाड में अलग-अलग अंक प्राप्त हुए हैं। B को A और C से अधिक अंक प्राप्त हुआ है। E को B और D से अधिक अंक प्राप्त हुआ है। D को उस C से अधिक अंक प्राप्त हुआ, जिसे A से कम अंक प्राप्त हुआ है। पांचों में से किस विद्यार्थी को सबसे कम अंक प्राप्त हुआ है?

Ans
✗ 1. E
✗ 2. A
✗ 3. B
✓ 4. C

Question ID : **630680248894**
Option 1 ID : **630680965670**
Option 2 ID : **630680965667**
Option 3 ID : **630680965669**
Option 4 ID : **630680965668**
Status : **Answered**
Chosen Option : **4**

Q.12 उस सर्वाधिक उपयुक्त विकल्प का चयन कीजिए, जो दिए गए वाक्य में रेखांकित शब्द को प्रतिस्थापित कर सकता है।

The teacher was extremely angry <u>on</u> the boys who had thrown stones at the dogs.

Ans
✗ 1. over
✗ 2. around
✓ 3. with
✗ 4. along

Question ID : **630680248895**
Option 1 ID : **630680965671**
Option 2 ID : **630680965672**
Option 3 ID : **630680965673**
Option 4 ID : **630680965674**
Status : **Answered**
Chosen Option : **1**

Q.13 रमेश की आयु सीमा की आयु की दोगुनी और सोहम की आयु की आधी है। सीमा, मोहन से बड़ी है। सबसे बड़ा कौन है?

Ans
✗ 1. रमेश
✗ 2. सीमा
✗ 3. मोहन
✓ 4. सोहम

Question ID : **630680248903**
Option 1 ID : **630680965703**
Option 2 ID : **630680965706**
Option 3 ID : **630680965704**
Option 4 ID : **630680965705**
Status : **Answered**
Chosen Option : **4**

Q.14 यदि A का अर्थ '×' है, B का अर्थ '÷' है, C का अर्थ '−' है और D का अर्थ '+' है, तो निम्नलिखित का मान ज्ञात करें।
5 D 16 A 5 B 8 C 8

Ans
✓ 1. 7
✗ 2. 5.125
✗ 3. 85
✗ 4. 2.625

Question ID : **630680248899**
Option 1 ID : **630680965687**
Option 2 ID : **630680965688**
Option 3 ID : **630680965689**
Option 4 ID : **630680965690**
Status : **Answered**
Chosen Option : **1**

Q.15 उस विकल्प का चयन करें जो दिए गए शब्दों की सही व्यवस्था को उस क्रम में इंगित करता है, जिस क्रम में वे अंग्रेजी शब्दकोश में आते देते हैं।

1. Mitzwah, Minxish, Mikvoth, Mikvehs
2. Minxish, Mikvoth, Mikvehs, Mitzwah
3. Mitzwah, Mikvoth, Mikvehs, Minxish
4. Mikvehs, Mikvoth, Minxish, Mitzvah

Ans
✗ 1. 2
✓ 2. 4
✗ 3. 3
✗ 4. 1

Question ID : **630680248900**
Option 1 ID : **630680965692**
Option 2 ID : **630680965694**
Option 3 ID : **630680965693**
Option 4 ID : **630680965691**
Status : **Answered**
Chosen Option : **2**

Q.16 एक लड़की की ओर संकेत करते हुए, आकाश ने कहा कि, "वह मेरी दादी/नानी (ग्रैंडमदर) की एकमात्र संतान की पुत्री है।"वह लड़की आकाश से किस प्रकार संबंधित है?

Ans
✗ 1. भतीजी/भांजी
✗ 2. पुत्री
✗ 3. जानकारी अधूरी है
✓ 4. बहन

Question ID : **630680248906**
Option 1 ID : **630680965717**
Option 2 ID : **630680965718**
Option 3 ID : **630680965715**
Option 4 ID : **630680965716**
Status : **Answered**
Chosen Option : **4**

Q.17 शब्द 'BOTANY' में प्रत्येक व्यंजन को अंग्रेजी वर्णानुक्रम में उसके बाद वाले अक्षर से बदल दिया जाता है और प्रत्येक स्वर को अंग्रेजी वर्णानुक्रम में उससे पहले वाले अक्षर से बदल दिया जाता है। इस प्रकार बने अक्षर समूह में निम्नलिखित में से कौन सा अक्षर दो बार दिखाई देगा?

Ans
✗ 1. U
✓ 2. Z
✗ 3. N
✗ 4. C

Question ID : **630680248888**
Option 1 ID : **630680965645**
Option 2 ID : **630680965646**
Option 3 ID : **630680965644**
Option 4 ID : **630680965643**
Status : **Answered**
Chosen Option : **2**

Q.18 दिए गए कथनों और निष्कर्षों को ध्यानपूर्वक पढ़िए। यह मानते हुए कि कथनों में दी गई जानकारी सत्य है, भले ही यह सामान्यतः ज्ञात तथ्यों से भिन्न प्रतीत होती हो, तय कीजिए कि दिए गए निष्कर्षों में से कौन सा/से निष्कर्ष, कथनों का तार्किक रूप से अनुसरण करता/करते है/हैं।

कथन:
A. कुछ हाथी, व्हेल हैं।
B. कुछ मछलियां, जिराफ़ हैं।
C. सभी जिराफ, शेर हैं।

निष्कर्ष:
(I) कुछ मछलियां, व्हेल हैं।
(II) कुछ शेर, मछलियां हैं।
(III) कुछ हाथी, जिराफ हैं।

Ans
✗ 1. कोई भी निष्कर्ष अनुसरण नहीं करता है
✓ 2. केवल निष्कर्ष II अनुसरण करता है
✗ 3. केवल निष्कर्ष I अनुसरण करता है
✗ 4. या तो निष्कर्ष I या तो निष्कर्ष II अनुसरण करता है

Question ID : **630680248887**
Option 1 ID : **630680965642**
Option 2 ID : **630680965640**
Option 3 ID : **630680965639**
Option 4 ID : **630680965641**
Status : **Answered**
Chosen Option : **2**

Q.19

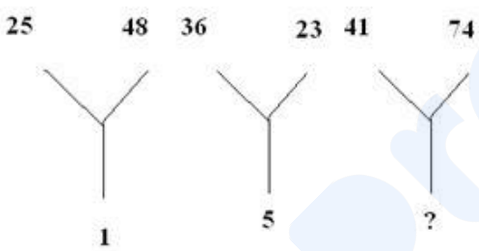

लुप्त संख्या (?) ज्ञात कीजिए।

Ans
✓ 1. 7
✗ 2. 8
✗ 3. 3
✗ 4. 2

Question ID : **630680248904**
Option 1 ID : **630680965707**
Option 2 ID : **630680965709**
Option 3 ID : **630680965708**
Option 4 ID : **630680965710**
Status : **Not Answered**
Chosen Option : **--**

Q.20 यदि प्रत्येक संख्या के पहले और तीसरे अंकों के स्थान आपस में बदल दिए जाएं, तो निम्नलिखित में से कौन सी संख्या सबसे बड़ी संख्या होगी?

(a) 358 (b) 369 (c) 489 (d) 527 (e) 925

Ans
✗ 1. A
✗ 2. B
✓ 3. C
✗ 4. E

Question ID : **630680248901**
Option 1 ID : **630680965695**
Option 2 ID : **630680965696**
Option 3 ID : **630680965697**
Option 4 ID : **630680965698**
Status : **Answered**
Chosen Option : **3**

Section : **Basic Computer Knowledge**

Q.1 एमएस-वर्ड 2019 (MS-Word 2019) में एक पैराग्राफ ऊपर जाने के लिए निम्नलिखित में से किस कीबोर्ड शॉर्टकट का उपयोग किया जाता है?

Ans
✗ 1. Ctrl + Down arrow key
✗ 2. Ctrl + Left arrow key
✓ 3. Ctrl + Up arrow key
✗ 4. Ctrl + Right arrow key

Question ID : **630680248856**
Option 1 ID : **630680965516**
Option 2 ID : **630680965518**
Option 3 ID : **630680965515**
Option 4 ID : **630680965517**
Status : **Answered**
Chosen Option : **3**

Q.2 एमएस-वर्ड 2010 (MS-Word 2010) में प्रिंट ऑप्शन को खोलने के लिए निम्नलिखित में से किस कीबोर्ड शॉर्टकट का उपयोग किया जाता है?

Ans
✓ 1. Ctrl + P
✗ 2. Ctrl + D + P
✗ 3. Alt + F + K
✗ 4. Alt + D + P

Question ID : **630680248880**
Option 1 ID : **630680965612**
Option 2 ID : **630680965614**
Option 3 ID : **630680965611**
Option 4 ID : **630680965613**
Status : **Answered**
Chosen Option : **1**

Q.3 एमएस-वर्ड 2010 (MS-Word 2010) में प्रिंट ऑप्शन को खोलने के लिए निम्नलिखित में से किस कीबोर्ड शॉर्टकट का उपयोग किया जाता है?

Ans
✗ 1. Alt + D + P
✓ 2. Ctrl + P
✗ 3. Ctrl + D + P
✗ 4. Alt + F + K

Question ID : **630680248860**
Option 1 ID : **630680965533**
Option 2 ID : **630680965532**
Option 3 ID : **630680965534**
Option 4 ID : **630680965531**
Status : **Answered**
Chosen Option : **2**

Q.4 विंडोज ओएस (Windows OS) में, जब आप डिलीट कुंजी का उपयोग करके या केवल राइट-क्लिक करके और 'डिलीट' ऑप्शन को सेलेक्ट करके अपने कंप्यूटर पर किसी भी ड्राइव से किसी आइटम को डिलीट करते हैं, तो फाइल _____ में चली जाती है।

Ans
✗ 1. Taskbar (टास्कबार)
✓ 2. Recycle Bin (रीसायकल बिन)
✗ 3. Start menu (स्टार्ट मेन्यू)
✗ 4. Control Panel (कंट्रोल पैनल)

Question ID : **630680248870**
Option 1 ID : **630680965574**
Option 2 ID : **630680965573**
Option 3 ID : **630680965572**
Option 4 ID : **630680965571**
Status : **Answered**
Chosen Option : **2**

Q.5 डेस्कटॉप पर आसन्न आइकनों को सेलेक्ट करने के लिए, आपको _____ कुंजी (key) दबानी होगी और फिर उस आइकनों पर क्लिक करना होगा जिन्हें आप सेलेक्ट करना चाहते हैं।

Ans
✗ 1. Tab
✗ 2. Ctrl
✗ 3. Alt
✓ 4. Shift

Question ID : **630680248852**
Option 1 ID : **630680965501**
Option 2 ID : **630680965500**
Option 3 ID : **630680965499**
Option 4 ID : **630680965502**
Status : **Answered**
Chosen Option : **1**

Q.6 जब कोई ईमेल भेजा जाता है, तो यह उस कंपनी से संबंधित _____ को जाता है जिसने ईमेल एड्रेस जारी किया है।

Ans
✔ 1. मेल सर्वर (mail server)
✘ 2. क्लाइंट (client)
✘ 3. ग्रुप (group)
✘ 4. नेटवर्क (network)

Question ID : **630680248855**
Option 1 ID : **630680965514**
Option 2 ID : **630680965511**
Option 3 ID : **630680965513**
Option 4 ID : **630680965512**
Status : **Answered**
Chosen Option : **1**

Q.7 एमएस-वर्ड (MS-Word 2010) के विभिन्न भागों पर लागू इसके फीचर की विभिन्न श्रेणियों का निरीक्षण करने के लिए इस डॉक्यूमेंट को ध्यानपूर्वक पढ़ें, और तदनुसार निम्नलिखित प्रश्न के लिए सबसे उपयुक्त विकल्प का चयन करें।

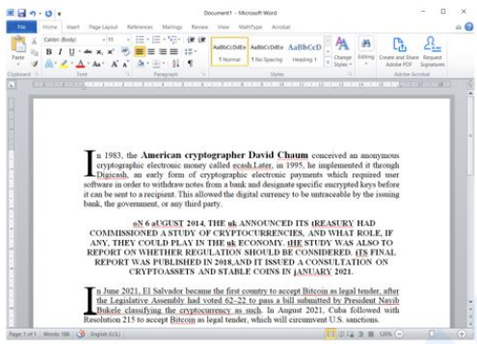

In 1983, the **American cryptographer David Chaum** conceived an anonymous cryptographic electronic money called ecash.Later, in 1995, he implemented it through Digicash, an early form of cryptographic electronic payments which required user software in order to withdraw notes from a bank and designate specific encrypted keys before it can be sent to a recipient. This allowed the digital currency to be untraceable by the issuing bank, the government, or any third party.

oN 6 aUGUST 2014, THE uk ANNOUNCED ITS tREASURY HAD COMMISSIONED A STUDY OF CRYPTOCURRENCIES, AND WHAT ROLE, IF ANY, THEY COULD PLAY IN THE uk ECONOMY. tHE STUDY WAS ALSO TO REPORT ON WHETHER REGULATION SHOULD BE CONSIDERED. ITS FINAL REPORT WAS PUBLISHED IN 2018,AND IT ISSUED A CONSULTATION ON CRYPTOASSETS AND STABLE COINS IN jANUARY 2021.

In June 2021, El Salvador became the first country to accept Bitcoin as legal tender, after the Legislative Assembly had voted 62–22 to pass a bill submitted by President Nayib Bukele classifying the cryptocurrency as such. In August 2021, Cuba followed with Resolution 215 to accept Bitcoin as legal tender, which will circumvent U.S. sanctions.

उपर्युक्त डॉक्यूमेंट में कुल कितने ड्रॉप कैप उपस्थित हैं?

Ans
✘ 1. पाँच
✘ 2. तीन
✔ 3. दो
✘ 4. आठ

Question ID : **630680248878**
Option 1 ID : **630680965606**
Option 2 ID : **630680965605**
Option 3 ID : **630680965603**
Option 4 ID : **630680965604**
Status : **Answered**
Chosen Option : **4**

Q.8 आप एक _____ क्रिएट करने को चुन सकते हैं जो आपके द्वारा भेजे जाने वाले प्रत्येक ईमेल के अंत में दिखाई देगा।

Ans
✗ 1. subject (सब्जेक्ट)
✗ 2. attachment (अटैचमेंट)
✓ 3. signature (सिग्नेचर)
✗ 4. formatting options (फॉर्मेट ऑप्शंस)

Question ID : **630680248853**
Option 1 ID : **630680965504**
Option 2 ID : **630680965506**
Option 3 ID : **630680965503**
Option 4 ID : **630680965505**
Status : **Answered**
Chosen Option : **2**

Q.9 विन्ज़िप (WinZip) सॉफ्टवेयर, _____ सॉफ्टवेयर का एक उदाहरण है।

Ans
✓ 1. शेयरवेयर (shareware)
✗ 2. ड्राइवर (driver)
✗ 3. प्रोग्रामिंग (programming)
✗ 4. ओपन सोर्स (open source)

Question ID : **630680248871**
Option 1 ID : **630680965577**
Option 2 ID : **630680965576**
Option 3 ID : **630680965575**
Option 4 ID : **630680965578**
Status : **Answered**
Chosen Option : **3**

Q.10 एमएस-वर्ड 2010 (MS-Word 2010) में निम्नलिखित में से कौन-सा ऑप्शन 'रिव्यू' टैब के 'प्रूफिंग' ग्रुप में नहीं होता है?

Ans
✓ 1. Comment (कमेंट)
✗ 2. Word Count (वर्ड काउंट)
✗ 3. Spelling & Grammar (स्पेलिंग एंड ग्रामर)
✗ 4. Thesaurus (थिसॉरस)

Question ID : **630680248857**
Option 1 ID : **630680965522**
Option 2 ID : **630680965521**
Option 3 ID : **630680965519**
Option 4 ID : **630680965520**
Status : **Answered**
Chosen Option : **1**

Q.11 LAN का पूर्ण रूप क्या है??

Ans
✔ 1. Local Area Network (लोकल एरिया नेटवर्क)
✘ 2. Limited Area Network (लिमिटेड एरिया नेटवर्क)
✘ 3. Large Area Network (लार्ज एरिया नेटवर्क)
✘ 4. Logical Area Network (लॉजिकल एरिया नेटवर्क)

Question ID : **630680248886**
Option 1 ID : **630680965637**
Option 2 ID : **630680965635**
Option 3 ID : **630680965636**
Option 4 ID : **630680965638**
Status : **Answered**
Chosen Option : **1**

Q.12 डेस्कटॉप पर आसन्न आइकनों को सेलेक्ट करने के लिए, आपको _____ कुंजी (key) दबानी होगी और फिर उस आइकनों पर क्लिक करना होगा जिन्हें आप सेलेक्ट करना चाहते हैं।

Ans
✘ 1. Alt
✘ 2. Tab
✔ 3. Shift
✘ 4. Ctrl

Question ID : **630680248872**
Option 1 ID : **630680965579**
Option 2 ID : **630680965581**
Option 3 ID : **630680965582**
Option 4 ID : **630680965580**
Status : **Answered**
Chosen Option : **2**

Q.13 निम्नलिखति में से कौन-सा टचस्क्रीन मॉनिटर का एक प्रकार नहीं है?

Ans
✘ 1. कैपेसिटिव (Capacitive)
✘ 2. रेसिस्टिव (Resistive)
✔ 3. गैस प्लाज्मा (Gas plasma)
✘ 4. सर्फेस एकाउस्टिक वेव (Surface acoustic wave)

Question ID : **630680248849**
Option 1 ID : **630680965487**
Option 2 ID : **630680965488**
Option 3 ID : **630680965490**
Option 4 ID : **630680965489**
Status : **Answered**
Chosen Option : **3**

Q.14 एमएस-वर्ड 2010 (MS-Word 2010) में निम्नलिखित में से कौन-सा ऑप्शन 'रिव्यू' टैब के 'प्रूफिंग' ग्रुप में नहीं होता है?

Ans
✗ 1. Thesaurus (थिसॉरस)
✓ 2. Comment (कमेंट)
✗ 3. Spelling & Grammar (स्पेलिंग एंड ग्रामर)
✗ 4. Word Count (वर्ड काउंट)

Question ID : **630680248877**
Option 1 ID : **630680965600**
Option 2 ID : **630680965602**
Option 3 ID : **630680965599**
Option 4 ID : **630680965601**
Status : **Answered**
Chosen Option : **2**

Q.15 एमएस-एक्सेल 2010 (MS-Excel 2010) में, एक से अधिक वर्कशीट प्रिंट करने के लिए, पहले वर्कशीट पर क्लिक करें, अपने कीबोर्ड पर _____ कुंजी (key) को होल्ड करें और फिर किसी भी अन्य वर्कशीट को क्लिक करें, जिसे आप सेलेक्ट करना चाहते हैं।

Ans
✗ 1. Tab
✓ 2. Ctrl
✗ 3. Alt
✗ 4. Esc

Question ID : **630680248863**
Option 1 ID : **630680965545**
Option 2 ID : **630680965544**
Option 3 ID : **630680965546**
Option 4 ID : **630680965543**
Status : **Answered**
Chosen Option : **1**

Q.16 असेम्बलर प्रोग्राम के आउटपुट को इनपुट सोर्स प्रोग्राम के सापेक्ष _____ कहा जाता है।

Ans
✓ 1. ऑब्जेक्ट प्रोग्राम (object program)
✗ 2. बिट कोड (bit code)
✗ 3. बाइट कोड (byte code)
✗ 4. सोर्स प्रोग्राम (source program)

Question ID : **630680248858**
Option 1 ID : **630680965523**
Option 2 ID : **630680965526**
Option 3 ID : **630680965524**
Option 4 ID : **630680965525**
Status : **Answered**
Chosen Option : **3**

Q.17 एमएस-वर्ड 2019 (MS-Word 2019) में एक पैराग्राफ ऊपर जाने के लिए निम्नलिखित में से किस कीबोर्ड शॉर्टकट का उपयोग किया जाता है?

Ans
✗ 1. Ctrl + Down arrow key
✓ 2. Ctrl + Up arrow key
✗ 3. Ctrl + Left arrow key
✗ 4. Ctrl + Right arrow key

Question ID : **630680248876**
Option 1 ID : **630680965596**
Option 2 ID : **630680965595**
Option 3 ID : **630680965598**
Option 4 ID : **630680965597**
Status : **Answered**
Chosen Option : **2**

Q.18 निम्नलिखित में से कौन-सा एक ईमेल एड्रेस का उदाहरण है?

Ans
✗ 1. http://simple.com/index.htm
✓ 2. kidsmart@billme.com
✗ 3. D:\ \Email\Standard
✗ 4. children.org/teachers/mail addresses

Question ID : **630680248854**
Option 1 ID : **630680965507**
Option 2 ID : **630680965509**
Option 3 ID : **630680965508**
Option 4 ID : **630680965510**
Status : **Answered**
Chosen Option : **2**

Q.19 पहचान कीजिए कि कंप्यूटर की विशेषताओं से संबंधित दिए गए कथन सत्य हैं या असत्य।

(a) स्मरण शक्ति: कंप्यूटर हमारे लिए डेटा को याद रख सकता है।
(b) कोई बौद्धिक स्तर (IQ) नहीं: कंप्यूटर बिना निर्देश के कार्य नहीं करता है।

Ans
✗ 1. a) असत्य b) असत्य
✗ 2. a) असत्य b) सत्य
✓ 3. a) सत्य b) असत्य
✗ 4. a) सत्य b) सत्य

Question ID : **630680248847**
Option 1 ID : **630680965481**
Option 2 ID : **630680965482**
Option 3 ID : **630680965480**
Option 4 ID : **630680965479**
Status : **Answered**
Chosen Option : **4**

Q.20 एमएस-वर्ड 2010 (MS-Word 2010) में, फाइंड (नेविगेशन) पैन {Find (Navigation) pane} खोलने के लिए, _____ दबाएं।

Ans
- ✔ 1. Ctrl + F
- ✘ 2. Ctrl + A
- ✘ 3. Ctrl + V
- ✘ 4. Ctrl + C

Question ID : **630680248859**
Option 1 ID : **630680965530**
Option 2 ID : **630680965527**
Option 3 ID : **630680965529**
Option 4 ID : **630680965528**
Status : **Answered**
Chosen Option : **2**