Multi Tasking Non Technical Staff and Havaldar CBIC and CBN Examination 2023

Roll Number	
Candidate Name	
Venue Name	
Exam Date	06/09/2023
Exam Time	12:30 PM - 2:30 PM
Subject	MTS Non Tech Havaldar CBIC and CBN Examination 2023

Section : **Numerical and Mathematical Ability**

Q.1 **निम्नलिखित व्यंजक को सरल कीजिए।**

15÷5 of 3×4+8÷12 of 4×12-4÷5×20

Ans

✗ 1. $\frac{20}{3}$

✗ 2. 1

✓ 3. -10

✗ 4. 12

Question ID : **264330158196**
Option 1 ID : **264330620144**
Option 2 ID : **264330620145**
Option 3 ID : **264330620143**
Option 4 ID : **264330620146**
Status : **Answered**
Chosen Option : **3**

Q.2 एक निश्चित राशि पर 15% वार्षिक दर से 4 वर्षों का साधारण ब्याज, समान धनराशि पर और समान ब्याज दर पर 6 वर्षों के साधारण ब्याज से ₹4,500 कम है। वह धनराशि ज्ञात कीजिए।

Ans

✗ 1. ₹13,000

✓ 2. ₹15,000

✗ 3. ₹12,000

✗ 4. ₹14,000

Question ID : **264330156227**
Option 1 ID : **264330612308**
Option 2 ID : **264330612310**
Option 3 ID : **264330612307**
Option 4 ID : **264330612309**
Status : **Answered**
Chosen Option : **2**

Q.3 समान धारिता (क्षमता) वाले दो पात्र दूध और पानी के मिश्रण से भरे हुए हैं। पहले पात्र में, दूध और पानी का अनुपात 3 : 11 है और दूसरे पात्र में अनुपात 9 : 11 है। यदि दोनों मिश्रणों को एक पात्र में मिलाया जाता है, तो परिणामी मिश्रण में दूध और पानी का अनुपात क्या है?

Ans

✔ 1. 93 : 187

✘ 2. 21 : 87

✘ 3. 93 : 179

✘ 4. 87 : 197

Question ID : **264330154078**
Option 1 ID : **264330603778**
Option 2 ID : **264330603775**
Option 3 ID : **264330603776**
Option 4 ID : **264330603777**
Status : **Answered**
Chosen Option : **1**

Q.4 एक आदमी 8 km/h की चाल से एक निश्चित दूरी तय करने में 30 मिनट का समय लेता है। यदि वह 16 km/h की चाल से चलता है, तो वह उतनी ही दूरी कितने मिनटों में तय करेगा?

Ans

✘ 1. 30 मिनट

✔ 2. 15 मिनट

✘ 3. 25 मिनट

✘ 4. 20 मिनट

Question ID : **264330156232**
Option 1 ID : **264330612330**
Option 2 ID : **264330612327**
Option 3 ID : **264330612329**
Option 4 ID : **264330612328**
Status : **Answered**
Chosen Option : **2**

Q.5 एक घन के प्रत्येक किनारे में 30% की वृद्धि की जाती है। इसके पृष्ठीय क्षेत्रफल में कितने प्रतिशत की वृद्धि होगी?

Ans

✔ 1. 69%

✘ 2. 30%

✘ 3. 90%

✘ 4. 60%

Question ID : **264330154070**
Option 1 ID : **264330603744**
Option 2 ID : **264330603746**
Option 3 ID : **264330603745**
Option 4 ID : **264330603743**
Status : **Answered**
Chosen Option : **1**

Q.6 A और B एक काम को $5\frac{1}{3}$ दिनों में पूरा कर सकते हैं। A अकेले इस काम को 8 दिनों में पूरा कर सकता है। A और B इस काम को पूरा करने के लिए बारी-बारी से एक दिन छोड़कर काम करते हैं (B पहले दिन काम शुरू करता है)। काम कितने दिनों में पूरा हो जाएगा?

Ans

✗ 1. $11\frac{1}{3}$ दिन

✗ 2. 6 दिन

✗ 3. $6\frac{1}{3}$ दिन

✓ 4. 11 दिन

Question ID : **264330154135**
Option 1 ID : **264330604005**
Option 2 ID : **264330604003**
Option 3 ID : **264330604006**
Option 4 ID : **264330604004**
Status : **Answered**
Chosen Option : **4**

Q.7 यदि किसी वस्तु के क्रय मूल्य पर 25% का लाभ होता है, तो उसके विक्रय मूल्य पर परिकलित किए गए लाभ का प्रतिशत कितना होगा?

Ans

✓ 1. 20%

✗ 2. 15%

✗ 3. 18%

✗ 4. 22%

Question ID : **264330155961**
Option 1 ID : **264330611244**
Option 2 ID : **264330611245**
Option 3 ID : **264330611246**
Option 4 ID : **264330611243**
Status : **Answered**
Chosen Option : **1**

Q.8 किस वार्षिक दर पर ₹6,400 की धनराशि पर 2 वर्षों में ₹1,344 का (वार्षिक रूप से संयोजित) चक्रवृद्धि ब्याज प्राप्त होगा?

Ans

✓ 1. 10%

✗ 2. 8%

✗ 3. 5%

✗ 4. 12%

Question ID : **264330154130**
Option 1 ID : **264330603983**
Option 2 ID : **264330603985**
Option 3 ID : **264330603986**
Option 4 ID : **264330603984**
Status : **Answered**
Chosen Option : **1**

Q.9 निम्नलिखित वृत्त-आलेख में एक परिवार के अलग-अलग मदों जैसे - भोजन, किराया, शिक्षा, दान और बचत के मासिक बजट को दर्शाया गया है। परिवार की कुल आय ₹9,000 है। वृत्त-आलेख का ध्यानपूर्वक अध्ययन कीजिए और नीचे दिए गए प्रश्न का उत्तर दीजिए।

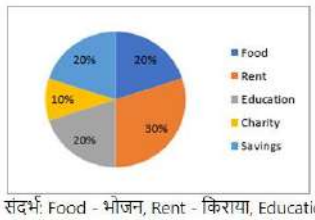

संदर्भ: Food - भोजन, Rent - किराया, Education - शिक्षा, Charity - दान, Savings - बचत

मदों जैसे- किराया, बचत, भोजन और शिक्षा पर कुल व्यय कितना है?

Ans

✔ 1. ₹8,100

✘ 2. ₹6,500

✘ 3. ₹8,200

✘ 4. ₹6,300

Question ID : **264330153859**
Option 1 ID : **264330602902**
Option 2 ID : **264330602900**
Option 3 ID : **264330602899**
Option 4 ID : **264330602901**
Status : **Answered**
Chosen Option : **1**

Q.10 यदि $p : q = 5 : 2$, तो $p^2 - q^2 : p^2 + q^2 = ?$

Ans

✘ 1. $29 : 21$

✘ 2. $3 : 4$

✔ 3. $21 : 29$

✘ 4. $4 : 3$

Question ID : **264330154126**
Option 1 ID : **264330603968**
Option 2 ID : **264330603969**
Option 3 ID : **264330603967**
Option 4 ID : **264330603970**
Status : **Answered**
Chosen Option : **3**

Q.11 दो टैंकरों में 850 लीटर और 680 लीटर तेल है। किसी पात्र की वह अधिकतम क्षमता (धारिता) ज्ञात कीजिए जो उपयोग किए जाने पर दोनों टैंकरों के तेल को सटीक संख्या में माप सकता है।

Ans

✘ 1. 340 लीटर

✘ 2. 680 लीटर

✔ 3. 170 लीटर

✘ 4. 425 लीटर

Question ID : **264330155982**
Option 1 ID : **264330611328**
Option 2 ID : **264330611329**
Option 3 ID : **264330611330**
Option 4 ID : **264330611327**
Status : **Answered**
Chosen Option : **3**

Q.12 A, B से 25% अधिक है, और B, C से 40% कम है। यदि C, D से 20% अधिक है, तो A, D से कितने प्रतिशत कम है?

Ans
✗ 1. 15%
✗ 2. 5%
✓ 3. 10%
✗ 4. 12%

Question ID : **264330156515**
Option 1 ID : **264330613448**
Option 2 ID : **264330613447**
Option 3 ID : **264330613449**
Option 4 ID : **264330613450**
Status : **Answered**
Chosen Option : **3**

Q.13 क्रमशः 6 cm, 8 cm और 10 cm त्रिज्याओं वाले धातु के गोलों को पिघलाकर एक ठोस गोला बनाया जाता है। परिणामी गोले की त्रिज्या (cm में) ज्ञात कीजिए।

Ans
✗ 1. 18
✓ 2. 12
✗ 3. 16
✗ 4. 24

Question ID : **264330153865**
Option 1 ID : **264330602926**
Option 2 ID : **264330602923**
Option 3 ID : **264330602925**
Option 4 ID : **264330602924**
Status : **Answered**
Chosen Option : **2**

Q.14 ABC क्लब में 88% सदस्य पुरुष हैं और 12% सदस्य महिलाएं हैं। यदि पुरुषों की औसत आयु 25 वर्ष और महिलाओं की औसत आयु 50 वर्ष है, तो सभी सदस्यों की औसत आयु कितनी है?

Ans
✗ 1. 27
✗ 2. 29
✗ 3. 26
✓ 4. 28

Question ID : **264330156211**
Option 1 ID : **264330612244**
Option 2 ID : **264330612246**
Option 3 ID : **264330612243**
Option 4 ID : **264330612245**
Status : **Answered**
Chosen Option : **4**

Q.15 किसी काम को पूरा करने में प्रदीप, संदीप से दोगुना कुशल है। एक साथ काम करते हुए, वे एक काम को 28 दिनों में पूरा कर सकते हैं। प्रदीप अकेले उस काम को कितने दिनों में पूरा कर सकता है?

Ans
✗ 1. 44
✗ 2. 46
✗ 3. 40
✓ 4. 42

Question ID : **264330156235**
Option 1 ID : **264330612341**
Option 2 ID : **264330612342**
Option 3 ID : **264330612339**
Option 4 ID : **264330612340**
Status : **Answered**
Chosen Option : **4**

Q.16 10 वस्तुओं का विक्रय मूल्य 13 वस्तुओं के क्रय मूल्य के बराबर है। लाभ प्रतिशत क्या है?

Ans
✓ 1. 30%
✗ 2. 25%
✗ 3. 20%
✗ 4. 40%

Question ID : **264330156518**
Option 1 ID : **264330613460**
Option 2 ID : **264330613462**
Option 3 ID : **264330613459**
Option 4 ID : **264330613461**
Status : **Answered**
Chosen Option : **1**

Q.17 नीचे दी गई तालिका वर्ष 2016 में आयु वर्ग के अनुसार एक कस्बे की कुल जनसंख्या के प्रतिशत को दर्शाती हैं।

Age Group (in years)	Per cent
up to 15	35
16-30	18.5
30-40	12.5
40-50	25.77
51 and above	8.23

संदर्भ : Age group (in years) -आयु वर्ग (वर्षों में), per cent- प्रतिशत, up to 15 – 15 वर्ष तक के, 51 and above – 51 वर्ष और उससे अधिक के

कस्बे में 40 वर्ष से कम आयु के 2200 बिलियन लोग हैं। 40-50 आयु वर्ग में कितने बिलियन लोग हैं?

Ans
✓ 1. 859
✗ 2. 1167
✗ 3. 417
✗ 4. 274

Question ID : **264330153887**
Option 1 ID : **264330603011**
Option 2 ID : **264330603014**
Option 3 ID : **264330603012**
Option 4 ID : **264330603013**
Status : **Answered**
Chosen Option : **1**

Q.18 रेलगाड़ी A और B एक ही समय पर शुरू होती हैं। रेलगाड़ी A स्टेशन P से स्टेशन Q तक 50 km/h की चाल से यात्रा करती है और रेलगाड़ी B, स्टेशन Q से स्टेशन P तक 70 km/h की चाल से यात्रा करती है। वे एक-दूसरे को 1 घंटे 20 मिनट के बाद पार करती हैं। स्टेशन P और स्टेशन Q के बीच की दूरी (km में) कितनी है?

Ans
✔ 1. 160
✘ 2. 150
✘ 3. 140
✘ 4. 180

Question ID : **264330155970**
Option 1 ID : **264330611280**
Option 2 ID : **264330611282**
Option 3 ID : **264330611279**
Option 4 ID : **264330611281**
Status : **Answered**
Chosen Option : **1**

Q.19 56 और 14 के बीच का माध्यानुपाती ज्ञात कीजिए।

Ans
✔ 1. 28
✘ 2. 14
✘ 3. 35
✘ 4. 42

Question ID : **264330153877**
Option 1 ID : **264330602973**
Option 2 ID : **264330602971**
Option 3 ID : **264330602972**
Option 4 ID : **264330602974**
Status : **Answered**
Chosen Option : **1**

Q.20 चार क्रमागत विषम संख्याओं का औसत 58 है। सबसे छोटी संख्या कौन-सी है?

Ans
✘ 1. 53
✔ 2. 55
✘ 3. 57
✘ 4. 51

Question ID : **264330156252**
Option 1 ID : **264330612408**
Option 2 ID : **264330612409**
Option 3 ID : **264330612410**
Option 4 ID : **264330612407**
Status : **Answered**
Chosen Option : **2**

Section : **Reasoning Ability and Problem Solving**

Q.1 यदि शब्द 'GRAPES' के प्रत्येक अक्षर को अंग्रेज़ी वर्णमाला के क्रम में व्यवस्थित किया जाए तो कितने अक्षरों का स्थान अपरिवर्तित रहेगा?

Ans

✔ 1. दो

✘ 2. चार

✘ 3. किसी का भी नहीं

✘ 4. एक

Question ID : **264330154321**
Option 1 ID : **264330604749**
Option 2 ID : **264330604747**
Option 3 ID : **264330604748**
Option 4 ID : **264330604750**
Status : **Answered**
Chosen Option : **1**

Q.2 नीचे दिए गए कथनों और निष्कर्षों को ध्यानपूर्वक पढ़िए। आपको मानना है कि दिए गए कथन सत्य हैं चाहे वे समान्यतः ज्ञात तथ्यों से अलग प्रतीत होते हों। आपको निश्चय करना है कि कौन-सा/कौन-से निष्कर्ष तार्किक रूप से दिए गए कथनों के अनुसार है/हैं।

कथन: कुछ पेंट, बिल्लियां हैं। सभी बिल्लियां, कुत्ते हैं। कुछ कुत्ते, केले हैं।

निष्कर्ष I: कुछ पेंट, कुत्ते हैं।
निष्कर्ष II: कुछ बिल्लियां, केले हैं।

Ans

✘ 1. न तो निष्कर्ष (I) और न ही (II) कथनों के अनुसार है।

✘ 2. दोनों निष्कर्ष (I) और (II) कथनों के अनुसार हैं।

✘ 3. केवल निष्कर्ष (II) कथनों के अनुसार है।

✔ 4. केवल निष्कर्ष (I) कथनों के अनुसार है।

Question ID : **264330155917**
Option 1 ID : **264330611073**
Option 2 ID : **264330611074**
Option 3 ID : **264330611072**
Option 4 ID : **264330611071**
Status : **Answered**
Chosen Option : **4**

Q.3 यदि G का अर्थ −, A का अर्थ ×, D का अर्थ +, B का अर्थ + है, तो निम्नलिखित समीकरण में प्रश्न चिह्न (?) के स्थान पर क्या आएगा?
12 A 7 G 100 D 5 B 17 = ?

Ans

✘ 1. 37

✔ 2. 81

✘ 3. 93

✘ 4. 74

Question ID : **264330154687**
Option 1 ID : **264330606213**
Option 2 ID : **264330606212**
Option 3 ID : **264330606214**
Option 4 ID : **264330606211**
Status : **Answered**
Chosen Option : **2**

Q.4 एक निश्चित कूट भाषा में, 'BLAME' को 'CMBNF' लिखा जाता है और 'CHANGE' को 'DIBOHF' लिखा जाता है। उस कूट भाषा में 'DESERT' को कैसे लिखा जाएगा?

Ans
✗ 1. FHSGTV
✓ 2. EFTFSU
✗ 3. EGTGSV
✗ 4. FGRFST

Question ID : **264330155808**
Option 1 ID : **264330610636**
Option 2 ID : **264330610638**
Option 3 ID : **264330610635**
Option 4 ID : **264330610637**
Status : **Answered**
Chosen Option : **2**

Q.5 उस समुच्चय को चुनिए जिसमें संख्याएँ ठीक उसी प्रकार संबंधित हैं जिस प्रकार निम्नलिखित समुच्चयों की संख्याएँ संबंधित हैं।

(ध्यान दें: संख्याओं को उनके घटक अंकों में अलग-अलग किए बिना, पूर्ण संख्याओं पर संक्रियाएँ की जानी चाहिए। उदा. 13 – संख्या 13 पर संक्रियाएँ जैसे 13 को जोड़ना/घटाना/गुणा करना आदि किया जा सकता है। 13 को 1 और 3 में अलग-अलग करने की और फिर 1 और 3 पर गणितीय संक्रियाएँ करने की अनुमति नहीं है।)

(14, 13, 32)

(21, 13, 39)

Ans
✓ 1. 19, 12, 36
✗ 2. 5, 19, 88
✗ 3. 15, 7, 18
✗ 4. 11, 14, 43

Question ID : **264330151609**
Option 1 ID : **264330594064**
Option 2 ID : **264330594065**
Option 3 ID : **264330594066**
Option 4 ID : **264330594063**
Status : **Answered**
Chosen Option : **1**

Q.6 दी गई श्रृंखला में प्रश्न चिन्ह '?' के स्थान पर क्या आना चाहिए?

7 28 91 280 ? 2548 7651

Ans
✗ 1. 861
✗ 2. 823
✓ 3. 847
✗ 4. 871

Question ID : **264330151484**
Option 1 ID : **264330593565**
Option 2 ID : **264330593563**
Option 3 ID : **264330593564**
Option 4 ID : **264330593566**
Status : **Answered**
Chosen Option : **3**

Q.7 दी गई आकृति के उस सही दर्पण प्रतिबिंब को चुनिए, जो नीचे दर्शाए गए अनुसार दर्पण को MN पर रखने पर बनेगा।

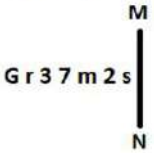

Ans

✗ 1. 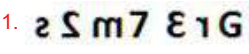

✓ 2.

✗ 3. 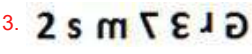

✗ 4. 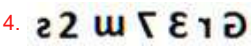

Question ID : **264330151529**
Option 1 ID : **264330593745**
Option 2 ID : **264330593746**
Option 3 ID : **264330593743**
Option 4 ID : **264330593744**
Status : **Answered**
Chosen Option : **2**

Q.8 दी गई श्रृंखला में प्रश्न चिन्ह '?' के स्थान पर क्या आना चाहिए?

11 39 123 375 1131 ?

Ans

✓ 1. 3399

✗ 2. 3499

✗ 3. 3187

✗ 4. 3417

Question ID : **264330151458**
Option 1 ID : **264330593460**
Option 2 ID : **264330593462**
Option 3 ID : **264330593459**
Option 4 ID : **264330593461**
Status : **Answered**
Chosen Option : **1**

Q.9 अंग्रेजी वर्णमाला क्रम के आधार पर दी गई श्रृंखला में प्रश्न चिह्न (?) के स्थान पर क्या आना चाहिए?

ESP, CRN, AQL, YPJ, ?

Ans

✗ 1. YMG

✗ 2. ZNG

✗ 3. YNI

✓ 4. WOH

Question ID : **264330155788**
Option 1 ID : **264330610556**
Option 2 ID : **264330610558**
Option 3 ID : **264330610555**
Option 4 ID : **264330610557**
Status : **Answered**
Chosen Option : **4**

Q.10 एक निश्चित तर्क के अनुसार 21, 86 से संबंधित है। समान तर्क के अनुसार, 33, 134 से संबंधित है। समान तर्क का अनुसरण करते हुए 25 निम्नलिखित में से किससे संबंधित है?

Ans

✔ 1. 102

✘ 2. 103

✘ 3. 100

✘ 4. 101

Question ID : **264330151580**
Option 1 ID : **264330593949**
Option 2 ID : **264330593950**
Option 3 ID : **264330593947**
Option 4 ID : **264330593948**
Status : **Answered**
Chosen Option : **1**

Q.11 नीचे दिए गए कथन/कथनों और निष्कर्षों को ध्यानपूर्वक पढ़िए। आपको मानना है कि दिए गए कथन सत्य हैं चाहे वे समान्यतः ज्ञात तथ्यों से अलग प्रतीत होते हों। आपको निश्चय करना है कि कौन-सा/कौन-से निष्कर्ष तार्किक रूप से दिए गए कथन/कथनों के अनुसार है/हैं।

कथन: कुछ कुत्ते, चमगादड़ हैं। कुछ चमगादड़, बिल्लियां हैं

निष्कर्ष:

(I) कुछ कुत्ते, बिल्लियां हैं।

(II) कुछ बिल्लियां, कुत्ते हैं।

Ans

✘ 1. दोनों निष्कर्ष (I) और (II) कथनों के अनुसार हैं।

✘ 2. केवल निष्कर्ष (I) कथनों के अनुसार है।

✔ 3. न तो निष्कर्ष (I) और न ही (II) कथनों के अनुसार है।

✘ 4. केवल निष्कर्ष (II) कथनों के अनुसार है।

Question ID : **264330154428**
Option 1 ID : **264330605178**
Option 2 ID : **264330605175**
Option 3 ID : **264330605177**
Option 4 ID : **264330605176**
Status : **Answered**
Chosen Option : **3**

Q.12 यदि निम्नलिखित आकृति श्रृंखला को जारी रखना हो तो कौन-सी आकृति प्रश्न चिन्ह (?) के स्थान पर आनी चाहिए?

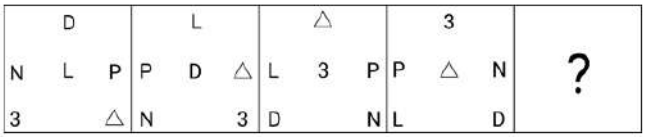

Ans

✗ 1.


✗ 2.


✗ 3.


✓ 4.
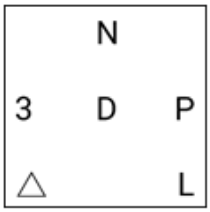

Question ID : **264330154756**
Option 1 ID : **264330606490**
Option 2 ID : **264330606489**
Option 3 ID : **264330606487**
Option 4 ID : **264330606488**
Status : **Answered**
Chosen Option : **4**

Q.13 दी गई श्रृंखला में प्रश्न चिह्न '?' के स्थान पर क्या आना चाहिए?

26 39 52 65 ? 91 104

Ans

✗ 1. 81

✗ 2. 79

✓ 3. 78

✗ 4. 80

Question ID : **264330151542**
Option 1 ID : **264330593798**
Option 2 ID : **264330593796**
Option 3 ID : **264330593795**
Option 4 ID : **264330593797**
Status : **Answered**
Chosen Option : **3**

Q.14 सात व्यक्ति, C, F, D, K, O, L और V एक सीधी पंक्ति में दक्षिण की ओर मुख करके बैठे हैं। V, F के दाईं ओर से दूसरे स्थान पर बैठा है। O के दाईं ओर केवल तीन व्यक्ति बैठे हैं। O और D का निकटतम पड़ोसी K है। L और V के बीच केवल तीन व्यक्ति बैठे हैं। F, L का निकटतम पड़ोसी नहीं है।

पंक्ति के सबसे बाईं ओर कौन बैठा है?

Ans
✗ 1. C
✗ 2. D
✓ 3. F
✗ 4. V

Question ID : **264330161698**
Option 1 ID : **264330634121**
Option 2 ID : **264330634119**
Option 3 ID : **264330634120**
Option 4 ID : **264330634122**
Status : **Answered**
Chosen Option : **3**

Q.15 यदि '+' और '-' को आपस में बदल दिया जाए तथा '×' और '÷' को आपस में बदल दिया जाए तो निम्नलिखित समीकरण में (?) के स्थान पर क्या आएगा?

$3 \div 5 + 8 - 505 \times 5 = ?$

Ans
✗ 1. 104
✗ 2. 106
✓ 3. 108
✗ 4. 102

Question ID : **264330154615**
Option 1 ID : **264330605924**
Option 2 ID : **264330605925**
Option 3 ID : **264330605926**
Option 4 ID : **264330605923**
Status : **Answered**
Chosen Option : **3**

Q.16 अक्षरों के उस संयोजन को चुनिए जिसे दी गई श्रृंखला के रिक्त स्थानों में क्रमिक रूप से रखने पर श्रृंखला पूरी हो जाएगी।

A _ AA _ _ AD _ _DA

Ans
✗ 1. AADDA
✗ 2. ADDAD
✗ 3. DAADD
✓ 4. DDAAA

Question ID : **264330151638**
Option 1 ID : **264330594179**
Option 2 ID : **264330594181**
Option 3 ID : **264330594182**
Option 4 ID : **264330594180**
Status : **Answered**
Chosen Option : **4**

Q.17 अंग्रेजी वर्णमाला क्रम के आधार पर BJTI, EMWL से एक निश्चित प्रकार से संबंधित है। उसी प्रकार, HDRL, KGUO से संबंधित है। समान तर्क का अनुसरण करते हुए, OCGM निम्नलिखित में से किससे संबंधित है?

Ans
✔ 1. RFJP
✘ 2. SEKO
✘ 3. QEIR
✘ 4. RFIO

Question ID : **264330151668**
Option 1 ID : **264330594300**
Option 2 ID : **264330594301**
Option 3 ID : **264330594299**
Option 4 ID : **264330594302**
Status : **Answered**
Chosen Option : **1**

Q.18 अंग्रेजी वर्णमाला क्रम के आधार पर दी गई श्रृंखला में प्रश्न चिह्न (?) के स्थान पर क्या आना चाहिए?

NBX, MEW, LHV, KKU, ?

Ans
✘ 1. HNS
✘ 2. IMR
✘ 3. HMS
✔ 4. JNT

Question ID : **264330155792**
Option 1 ID : **264330610574**
Option 2 ID : **264330610573**
Option 3 ID : **264330610571**
Option 4 ID : **264330610572**
Status : **Answered**
Chosen Option : **4**

Q.19 एक निश्चित कूट भाषा में, 'WHAT' को '5298' लिखा जाता है और 'THAN' को '9826' लिखा जाता है। उस कूट भाषा में 'W' को कैसे लिखा जाएगा?

Ans
✘ 1. 8
✘ 2. 6
✔ 3. 5
✘ 4. 2

Question ID : **264330155869**
Option 1 ID : **264330610880**
Option 2 ID : **264330610881**
Option 3 ID : **264330610882**
Option 4 ID : **264330610879**
Status : **Answered**
Chosen Option : **3**

Q.20 उस विकल्प आकृति को चुनिए जिसमें दी गई आकृति (X) उसके भाग के रूप में निहित है। (घूर्णन की अनुमति नहीं है)

(X)

Ans

✗ 1.

✗ 2.

✗ 3.

✓ 4.

Question ID : **264330151724**
Option 1 ID : **264330594524**
Option 2 ID : **264330594526**
Option 3 ID : **264330594523**
Option 4 ID : **264330594525**
Status : **Answered**
Chosen Option : **4**

Section : **General Awareness**

Q.1 निम्नलिखित में से कौन-सा उपन्यास अपने लेखक के साथ सही ढंग से युग्मित है?

Ans
- ✗ 1. ट्रेन टू पाकिस्तान - अमिताव घोष
- ✗ 2. मालगुडी डेज़ - विक्रम सेठ
- ✗ 3. द शैडो ऑफ़ लाइन्स – आर. के. नारायण
- ✓ 4. द नेमसेक - झुम्पा लाहिड़ी

Question ID : **264330161758**
Option 1 ID : **264330634359**
Option 2 ID : **264330634361**
Option 3 ID : **264330634360**
Option 4 ID : **264330634362**
Status : **Answered**
Chosen Option : **4**

Q.2 भारत के किस शहर में महिला विश्व मुक्केबाजी चैम्पियनशिप 2023 का आयोजन किया गया?

Ans
- ✗ 1. गोवा
- ✗ 2. गुजरात
- ✓ 3. नई दिल्ली
- ✗ 4. पंजाब

Question ID : **264330158239**
Option 1 ID : **264330620318**
Option 2 ID : **264330620316**
Option 3 ID : **264330620315**
Option 4 ID : **264330620317**
Status : **Answered**
Chosen Option : **1**

Q.3 निम्नलिखित में से किस सुधारक ने सबसे पहले कलकत्ता में लड़कियों के लिए एक स्कूल स्थापित किया था?

Ans
- ✗ 1. नारायण गुरु
- ✗ 2. स्वामी दयानंद सरस्वती
- ✗ 3. महात्मा फुले
- ✓ 4. ईश्वर चंद्र विद्यासागर

Question ID : **264330160888**
Option 1 ID : **264330630883**
Option 2 ID : **264330630884**
Option 3 ID : **264330630886**
Option 4 ID : **264330630885**
Status : **Answered**
Chosen Option : **4**

Q.4 भारती शिवाजी और कनक रेले _____ के व्याख्याता हैं।

Ans
- ✓ 1. मोहिनीअट्टम
- ✗ 2. ओडिसी
- ✗ 3. कथक
- ✗ 4. मणिपुरी

Question ID : **264330160852**
Option 1 ID : **264330630741**
Option 2 ID : **264330630739**
Option 3 ID : **264330630740**
Option 4 ID : **264330630742**
Status : **Answered**
Chosen Option : **4**

Q.5 निम्नलिखित में से कौन-सा भारत में एक डाक व्यवहार का मार्ग (communication mail channel) है?

Ans
- ✗ 1. रेड चैनल (Red channel)
- ✗ 2. येलो चैनल (Yellow channel)
- ✗ 3. पिंक चैनल (Pink channel)
- ✓ 4. ग्रीन चैनल (Green channel)

Question ID : **264330160145**
Option 1 ID : **264330627921**
Option 2 ID : **264330627920**
Option 3 ID : **264330627919**
Option 4 ID : **264330627922**
Status : **Not Answered**
Chosen Option : **--**

Q.6 भूटान में किस धर्म के अनुयायियों की संख्या सबसे अधिक है?

Ans
- ✗ 1. हिंदू
- ✓ 2. बौद्ध
- ✗ 3. ईसाई
- ✗ 4. इस्लाम

Question ID : **264330161564**
Option 1 ID : **264330633586**
Option 2 ID : **264330633584**
Option 3 ID : **264330633585**
Option 4 ID : **264330633583**
Status : **Answered**
Chosen Option : **2**

Q.7 कौन-से सूक्ष्म, एकल-कोशिका वाले प्रकाश संश्लेषक जीव समुद्र के प्राथमिक उत्पादक के रूप में जाने जाते हैं - वे जीव जो जलीय खाद्य श्रृंखलाओं का आधार बनाते हैं?

Ans
- ✗ 1. विरियोप्लांकटन (Virioplankton)
- ✓ 2. पादपप्लवक (Phytoplankton)
- ✗ 3. प्राणिप्लवक (Zooplankton)
- ✗ 4. बैक्टीरियोप्लांकटन (Bacterioplankton)

Question ID : **264330160993**
Option 1 ID : **264330631306**
Option 2 ID : **264330631304**
Option 3 ID : **264330631305**
Option 4 ID : **264330631303**
Status : **Answered**
Chosen Option : **4**

Q.8 वैयक्तिक आय के संबंध में अंतरण भुगतान के बारे में निम्नलिखित में से कौन-सा सत्य है?

Ans
- ✗ 1. अंतरण भुगतान केवल व्यवसायों के लिए वैयक्तिक आय में शामिल हैं।
- ✗ 2. अंतरण भुगतान का वैयक्तिक आय पर कोई प्रभाव नहीं पड़ता है।
- ✓ 3. अंतरण भुगतान वैयक्तिक आय में शामिल हैं।
- ✗ 4. अंतरण भुगतान को वैयक्तिक आय से बाहर रखा गया है।

Question ID : **264330157320**
Option 1 ID : **264330616646**
Option 2 ID : **264330616645**
Option 3 ID : **264330616643**
Option 4 ID : **264330616644**
Status : **Not Answered**
Chosen Option : **--**

Q.9 सभी जैन त्योहारों में सबसे प्रसिद्ध, महामस्तकाभिषेक (Mahamastakabhisheka) हर 12 वर्ष में कर्नाटक के _____ में दिगंबर पवित्र परिसर में मनाया जाता है।

Ans
✔ 1. श्रवणबेलगोला (Shravanabelagola)
✘ 2. पुलियारमाला (Puliyarmala)
✘ 3. जिननाथपुरा (Jinanathapura)
✘ 4. कीलाकुइलकुडी (Keelakuilkudi)

Question ID : **264330161348**
Option 1 ID : **264330632721**
Option 2 ID : **264330632720**
Option 3 ID : **264330632722**
Option 4 ID : **264330632719**
Status : **Answered**
Chosen Option : **1**

Q.10 भारतीय महिला हॉकी टीम की पूर्व कप्तान _____ को भारतीय खेलों में उनके योगदान और खिलाड़ियों की पीढ़ियों को प्रेरित करने के लिए बीबीसी लाइफटाइम अचीवमेंट अवार्ड से सम्मानित किया गया।

Ans
✔ 1. प्रीतम सिवाच
✘ 2. वन्दना कटारिया
✘ 3. रानी रामपाल
✘ 4. सविता पुनिया

Question ID : **264330161436**
Option 1 ID : **264330633071**
Option 2 ID : **264330633073**
Option 3 ID : **264330633074**
Option 4 ID : **264330633072**
Status : **Answered**
Chosen Option : **3**

Q.11 निम्नलिखित नर्तकों में से किसका संबंध कथक के भारतीय शास्त्रीय नृत्य शैली से है?

Ans
✘ 1. डॉ. कनक रेले
✔ 2. पंडित बिरजू महाराज
✘ 3. अमूबी सिंह
✘ 4. डॉ. मिनती मिश्रा

Question ID : **264330155532**
Option 1 ID : **264330609534**
Option 2 ID : **264330609531**
Option 3 ID : **264330609532**
Option 4 ID : **264330609533**
Status : **Answered**
Chosen Option : **2**

Q.12 'भारतीय क्रांति की जननी' किसे माना जाता है?

Ans
- ✗ 1. उषा मेहता (Usha Mehta)
- ✗ 2. कस्तूरबा गांधी (Kasturba Gandhi)
- ✗ 3. एनी बेसेंट (Annie Besant)
- ✓ 4. मैडम कामा (Madame Cama)

Question ID : **264330162343**
Option 1 ID : **264330636702**
Option 2 ID : **264330636701**
Option 3 ID : **264330636699**
Option 4 ID : **264330636700**
Status : **Answered**
Chosen Option : **4**

Q.13 माधवपुर मेला _____ में आयोजित किया जाता है।

Ans
- ✗ 1. मुरादाबाद
- ✗ 2. जैसलमेर
- ✓ 3. पोरबंदर
- ✗ 4. भटिंडा

Question ID : **264330159085**
Option 1 ID : **264330623699**
Option 2 ID : **264330623702**
Option 3 ID : **264330623701**
Option 4 ID : **264330623700**
Status : **Answered**
Chosen Option : **3**

Q.14 निम्नलिखित में से कौन भरतनाट्यम और कथकली नर्तकी है?

Ans
- ✗ 1. शोवना नारायण
- ✗ 2. सोनल मानसिंह
- ✓ 3. मृणालिनी साराभाई
- ✗ 4. पद्मा सुब्रह्मण्यम

Question ID : **264330159065**
Option 1 ID : **264330623620**
Option 2 ID : **264330623621**
Option 3 ID : **264330623619**
Option 4 ID : **264330623622**
Status : **Answered**
Chosen Option : **3**

Q.15 भारत के संविधान का कौन-सा अनुच्छेद मौलिक अधिकारों को लागू करने के लिए सर्वोच्च न्यायालय में याचिका दायर के अधिकार की गारंटी देता है?

Ans
- ✗ 1. अनुच्छेद 21
- ✓ 2. अनुच्छेद 32
- ✗ 3. अनुच्छेद 25
- ✗ 4. अनुच्छेद 29

Question ID : **264330159918**
Option 1 ID : **264330627019**
Option 2 ID : **264330627022**
Option 3 ID : **264330627020**
Option 4 ID : **264330627021**
Status : **Answered**
Chosen Option : **2**

Q.16 ऑक्सीकृत पारे का सबसे आम अयस्क कौन-सा है जो ज्वालामुखी गतिविधि और उष्ण स्त्रोत (hot springs) से संबंधित दानेदार परतों या शिराओं (granular crusts or veins) में होता है?

Ans
- ✗ 1. सिडेराइट (Siderite)
- ✗ 2. कोरंडम (Corundum)
- ✓ 3. सिनाबार (Cinnabar)
- ✗ 4. डायस्पोर (Diaspore)

Question ID : **264330161402**
Option 1 ID : **264330632935**
Option 2 ID : **264330632937**
Option 3 ID : **264330632938**
Option 4 ID : **264330632936**
Status : **Answered**
Chosen Option : **3**

Q.17 भरहुत स्तूप निम्नलिखित में से किस राज्य में स्थित है?

Ans
- ✗ 1. उत्तरप्रदेश
- ✗ 2. बिहार
- ✗ 3. पंजाब
- ✓ 4. मध्यप्रदेश

Question ID : **264330160757**
Option 1 ID : **264330630360**
Option 2 ID : **264330630361**
Option 3 ID : **264330630359**
Option 4 ID : **264330630362**
Status : **Answered**
Chosen Option : **1**

Q.18 उस भौगोलिक विशेषता का क्या नाम है जो यूरोप और अफ्रीका के बीच सीमा का काम करती है?

Ans
- ✗ 1. डार्डनिल्स जलडमरूमध्य (Dardanelles Strait)
- ✓ 2. जिब्राल्टर जलडमरूमध्य (Strait of Gibraltar)
- ✗ 3. मलक्का जलडमरूमध्य (Malacca Strait)
- ✗ 4. बोस्पोरस जलडमरूमध्य (Bosporus Strait)

Question ID : **264330161327**
Option 1 ID : **264330632638**
Option 2 ID : **264330632635**
Option 3 ID : **264330632637**
Option 4 ID : **264330632636**
Status : **Answered**
Chosen Option : **3**

Q.19 निम्नलिखित में से 'सिलेक्शन डे' (Selection Day) पुस्तक के लेखक कौन हैं?

Ans
✔ 1. अरविंद अडिगा
✘ 2. चेतन भगत
✘ 3. अमीश त्रिपाठी
✘ 4. विक्रम सेठ

Question ID : **264330155456**
Option 1 ID : **264330609227**
Option 2 ID : **264330609230**
Option 3 ID : **264330609229**
Option 4 ID : **264330609228**
Status : **Answered**
Chosen Option : **1**

Q.20 भारत में 'महावट (Mahawat)' क्या है?

Ans
✔ 1. सर्दी के मौसम के दौरान चक्रवाती वर्षा
✘ 2. गर्मी के मौसम के दौरान गर्म और शुष्क हवाएं
✘ 3. मानसून के मौसम में बादल फटना
✘ 4. सर्दी के मौसम के दौरान शीत लहरें

Question ID : **264330161521**
Option 1 ID : **264330633411**
Option 2 ID : **264330633413**
Option 3 ID : **264330633414**
Option 4 ID : **264330633412**
Status : **Not Answered**
Chosen Option : **--**

Q.21 निम्नलिखित में से किसे मुख्य रूप से हिंदुस्तानी शास्त्रीय संगीत का उस्ताद माना जाता है?

Ans
✘ 1. मवेलिक्कारा प्रभाकर वर्मा (Mavelikkara Prabhakara Varma)
✘ 2. संपागोडु विघ्नराज (Sampagodu Vighnaraja)
✘ 3. साई विग्नेश (Sai Vignesh)
✔ 4. बड़े गुलाम अली खान (Bade Ghulam Ali Khan)

Question ID : **264330155473**
Option 1 ID : **264330609296**
Option 2 ID : **264330609297**
Option 3 ID : **264330609298**
Option 4 ID : **264330609295**
Status : **Answered**
Chosen Option : **4**

Q.22 भारत के संविधान का कौन-सा अनुच्छेद ग्राम पंचायत के गठन से संबंधित है?

Ans
- ✗ 1. अनुच्छेद 36
- ✗ 2. अनुच्छेद 38
- ✓ 3. अनुच्छेद 40
- ✗ 4. अनुच्छेद 45

Question ID : **264330159905**
Option 1 ID : **264330626970**
Option 2 ID : **264330626967**
Option 3 ID : **264330626968**
Option 4 ID : **264330626969**
Status : **Answered**
Chosen Option : **3**

Q.23 उज्ज्वल भारत उज्ज्वल भविष्य-पावर@2047 (Ujjwal Bharat Ujjwal Bhavishya–Power @ 2047) के अंतर्गत, प्रधानमंत्री ने तेलंगाना में निम्नलिखित में से किस 100 मेगावाट सौर परियोजना का उद्घाटन किया?

Ans
- ✗ 1. रिन्यू सौर ऊर्जा संयंत्र (ReNew Solar Power Plant)
- ✗ 2. जुराला सौर ऊर्जा संयंत्र (Jurala Solar Power Plant)
- ✗ 3. धर्मरावपेट सौर ऊर्जा संयंत्र (Dharmaraopet Solar Power Plant)
- ✓ 4. रामागुंडम फ्लोटिंग सोलर प्रोजेक्ट(Ramagundam Floating Solar Project)

Question ID : **264330161406**
Option 1 ID : **264330632951**
Option 2 ID : **264330632953**
Option 3 ID : **264330632952**
Option 4 ID : **264330632954**
Status : **Answered**
Chosen Option : **4**

Q.24 भारत में आयोजित 2023 विश्व स्क्वैश चैंपियनशिप (2023 World Squash Championships) का उद्घाटन किसने किया?

Ans
- ✗ 1. के. एन. नेहरू
- ✓ 2. उदयनिधि स्टालिन
- ✗ 3. ई. वी. वेलु
- ✗ 4. के. पोनमुडी

Question ID : **264330161128**
Option 1 ID : **264330631843**
Option 2 ID : **264330631844**
Option 3 ID : **264330631845**
Option 4 ID : **264330631846**
Status : **Answered**
Chosen Option : **2**

Q.25 भारत में सूक्ष्म वित्त संस्थान (MFIs) का प्राथमिक उद्देश्य क्या है?

Ans
✔ 1. कम आय वाले व्यक्तियों को छोटे ऋण प्रदान करना
✘ 2. भारतीय अर्थव्यवस्था में विदेशी निवेश को सुविधाजनक बनाना
✘ 3. मध्यमवर्गीय परिवारों के बीच उपभोक्ता व्यय को बढ़ावा देना
✘ 4. बड़े व्यवसायों को विशेष रूप से वित्तीय सेवाएं प्रदान करना

Question ID : **264330157289**
Option 1 ID : **264330616519**
Option 2 ID : **264330616522**
Option 3 ID : **264330616521**
Option 4 ID : **264330616520**
Status : **Answered**
Chosen Option : **1**

Section : **English Language and Comprehension**

Q.1 **Select the option that can be used as a one-word substitute for the given group of words.**
Unpleasant

Ans
✔ 1. Nasty
✘ 2. Nebulous
✘ 3. Negligible
✘ 4. Natal

Question ID : **264330151909**
Option 1 ID : **264330595252**
Option 2 ID : **264330595253**
Option 3 ID : **264330595254**
Option 4 ID : **264330595251**
Status : **Answered**
Chosen Option : **1**

Q.2 **Select the INCORRECTLY spelt word.**

Ans
✘ 1. Recommend
✘ 2. Tomorrow
✔ 3. Irresistable
✘ 4. Parallel

Question ID : **264330152645**
Option 1 ID : **264330598183**
Option 2 ID : **264330598184**
Option 3 ID : **264330598186**
Option 4 ID : **264330598185**
Status : **Answered**
Chosen Option : **2**

Q.3 **The following sentence has been split into four segments. Identify the segment that contains a grammatical error.**
I want to / give you / an information about / the missing necklace.

Ans
✗ 1. the missing necklace
✗ 2. I want to
✓ 3. an information about
✗ 4. give you

Question ID : **264330153420**
Option 1 ID : **264330601214**
Option 2 ID : **264330601211**
Option 3 ID : **264330601213**
Option 4 ID : **264330601212**
Status : **Answered**
Chosen Option : **2**

Q.4 **Select the most appropriate option that can substitute the underlined segment in the following sentence.**
She proposed to write the <u>life history</u> of the famous poet.

Ans
✗ 1. novel
✗ 2. mythology
✗ 3. autobiography
✓ 4. biography

Question ID : **264330152632**
Option 1 ID : **264330598134**
Option 2 ID : **264330598133**
Option 3 ID : **264330598131**
Option 4 ID : **264330598132**
Status : **Answered**
Chosen Option : **4**

Q.5 **Identify the most appropriate meaning of the given word.**
Ancient

Ans
✓ 1. Antique
✗ 2. Unworn
✗ 3. Contemporary
✗ 4. Recent

Question ID : **264330152573**
Option 1 ID : **264330597895**
Option 2 ID : **264330597897**
Option 3 ID : **264330597896**
Option 4 ID : **264330597898**
Status : **Answered**
Chosen Option : **1**

Q.6 **Select the option that can be used as a one-word substitute for the given group of words.**
Killing of one's own father

Ans
✔ 1. Patricide
✘ 2. Suicide
✘ 3. Matricide
✘ 4. Filicide

Question ID : **264330151813**
Option 1 ID : **264330594880**
Option 2 ID : **264330594882**
Option 3 ID : **264330594879**
Option 4 ID : **264330594881**
Status : **Answered**
Chosen Option : **1**

Q.7 **The following sentence has been divided into four parts. Identify the part that contains an error.**
(A) The mother exclaimed / (B) when she saw her son / (C) stumble on the race track, / (D) "Look, he fells!"

Ans
✘ 1. A
✘ 2. B
✘ 3. C
✔ 4. D

Question ID : **264330152629**
Option 1 ID : **264330598120**
Option 2 ID : **264330598122**
Option 3 ID : **264330598121**
Option 4 ID : **264330598119**
Status : **Answered**
Chosen Option : **4**

Q.8 **The sentence given below has spelling errors. Select the sentence without spelling errors.**
Though we read and hear a lot on green initiattive, we hardly tweak our routines to suite the larger picture.

Ans
✘ 1. Throug we read and hear a lot on green initiatives, we hardly tweak our routines to suite the larger picture.
✔ 2. Though we read and hear a lot on green initiatives, we hardly tweak our routines to suit the larger picture.
✘ 3. Though we read and hear a lot on green initiatives, we hardly tweek our routines to suite the larger picture.
✘ 4. Though we read and hear a lot on green iniciatives, we hardly tweak our routines to suite the larger picture.

Question ID : **264330153221**
Option 1 ID : **264330600444**
Option 2 ID : **264330600443**
Option 3 ID : **264330600446**
Option 4 ID : **264330600445**
Status : **Answered**
Chosen Option : **2**

Q.9 **Select the most appropriate meaning of the underlined idiom in the following sentence.**

After having invested so much time and energy into the project, we are now back to square one.

Ans
- ✗ 1. Not ready for the consequence
- ✗ 2. In the same city
- ✗ 3. Fighting with each other
- ✓ 4. Having to start all over again

Question ID : **264330153049**
Option 1 ID : **264330599766**
Option 2 ID : **264330599763**
Option 3 ID : **264330599765**
Option 4 ID : **264330599764**
Status : **Answered**
Chosen Option : **4**

Q.10 **Select the most appropriate synonym of the bracketed word in the following sentence to fill in the blank.**
The athlete's injury was a _____(defeat) for the team's chances of winning the championship.

Ans
- ✗ 1. progression
- ✗ 2. breakthrough
- ✗ 3. stress
- ✓ 4. setback

Question ID : **264330152651**
Option 1 ID : **264330598209**
Option 2 ID : **264330598208**
Option 3 ID : **264330598210**
Option 4 ID : **264330598207**
Status : **Answered**
Chosen Option : **4**

Q.11 **Select the most appropriate option that can substitute the underlined segment in the given sentence.**

To preparing the vine for plant, it should be cut back to 2 ft.

Ans
- ✗ 1. prepares in vine in plant
- ✗ 2. prepare a vine in planting
- ✗ 3. prepared the vine of plant
- ✓ 4. prepare the vine for planting

Question ID : **264330153484**
Option 1 ID : **264330601451**
Option 2 ID : **264330601453**
Option 3 ID : **264330601454**
Option 4 ID : **264330601452**
Status : **Answered**
Chosen Option : **4**

Q.12 Select the most appropriate option that can substitute the underlined segment in the given sentence.

They <u>are sell their company's</u> products to people.

Ans
1. was sell the company's
2. are sell the company
3. are selling their company's
4. is selling they company's

Question ID : **264330153474**
Option 1 ID : **264330601412**
Option 2 ID : **264330601414**
Option 3 ID : **264330601413**
Option 4 ID : **264330601411**
Status : **Answered**
Chosen Option : **3**

Q.13 Select the correctly spelt word.

Ans
1. Millennium
2. Milennium
3. Milenium
4. Millenum

Question ID : **264330152963**
Option 1 ID : **264330599427**
Option 2 ID : **264330599428**
Option 3 ID : **264330599430**
Option 4 ID : **264330599429**
Status : **Answered**
Chosen Option : **4**

Q.14 Select the most appropriate ANTONYM of the word given in brackets to fill in the blank.
The student provided her English teacher a short and _____(incoherent) account of her journey to Shimla with her parents.

Ans
1. rough
2. genuine
3. humble
4. lucid

Question ID : **264330152698**
Option 1 ID : **264330598396**
Option 2 ID : **264330598397**
Option 3 ID : **264330598395**
Option 4 ID : **264330598398**
Status : **Answered**
Chosen Option : **3**

Q.15 Select the most appropriate meaning of the given idiom.
Get your act together

Ans
✗ 1. To stay together
✗ 2. To have patience
✗ 3. To act in a play
✓ 4. Get organised and do things better

Question ID : **264330152726**
Option 1 ID : **264330598506**
Option 2 ID : **264330598504**
Option 3 ID : **264330598503**
Option 4 ID : **264330598505**
Status : **Answered**
Chosen Option : **1**

Q.16 Select the most appropriate idiom to fill in the blank.
By living in a rural area with access to the city, she gets _____.

Ans
✓ 1. the best of both worlds
✗ 2. to keep an ear to the ground
✗ 3. in for a penny in for a pound
✗ 4. on cloud nine

Question ID : **264330151890**
Option 1 ID : **264330595180**
Option 2 ID : **264330595181**
Option 3 ID : **264330595182**
Option 4 ID : **264330595179**
Status : **Answered**
Chosen Option : **3**

Q.17 Select the most appropriate option that can rectify the underlined segment in the given sentence. If there is no need to rectify it, select 'no rectification needed'.

The conductor said that it was the <u>worse</u> quake he ever knew.

Ans
✗ 1. no rectification needed
✓ 2. worst
✗ 3. bad
✗ 4. more bad

Question ID : **264330153466**
Option 1 ID : **264330601382**
Option 2 ID : **264330601381**
Option 3 ID : **264330601379**
Option 4 ID : **264330601380**
Status : **Answered**
Chosen Option : **2**

Q.18 **Select the most appropriate meaning of the underlined idiom.**
Mary is <u>a ball of fire</u> and is always engaged in something creative.

Ans
✗ 1. A dull and insipid person
✗ 2. To be good and beneficial for someone
✗ 3. A talkative person
✓ 4. An active and energetic person

Question ID : **264330151831**
Option 1 ID : **264330594951**
Option 2 ID : **264330594953**
Option 3 ID : **264330594954**
Option 4 ID : **264330594952**
Status : **Answered**
Chosen Option : **4**

Q.19 **Select the most appropriate option that can substitute the underlined segment in the given sentence.**

<u>The cats</u> food bowl was empty, so he meowed incessantly until his owner finally filled it with fresh kibble.

Ans
✓ 1. The cat's
✗ 2. A cats'
✗ 3. A cat's
✗ 4. The cats'

Question ID : **264330151856**
Option 1 ID : **264330595045**
Option 2 ID : **264330595046**
Option 3 ID : **264330595044**
Option 4 ID : **264330595043**
Status : **Answered**
Chosen Option : **1**

Q.20 **Parts of the following sentence have been given as options. Select the option that contains an error.**

Existentialism has a reputation for being angst-ridden and gloomy mostly because of its emphasis on pondering the meaningless of existence.

Ans
✓ 1. on pondering the meaningless of existence
✗ 2. for being angst-ridden and gloomy
✗ 3. Existentialism has a reputation
✗ 4. mostly because of its emphasis

Question ID : **264330153605**
Option 1 ID : **264330601906**
Option 2 ID : **264330601904**
Option 3 ID : **264330601903**
Option 4 ID : **264330601905**
Status : **Answered**
Chosen Option : **4**

Comprehension:

In the following passage, some words have been deleted. Read the passage carefully and select the most appropriate option to fill in each blank.

Democracy is a form of government where the power lies _____(1) the people. It is based on the principles of equality, freedom and the rule of law. In a democratic society, _____(2) have the right to participate in the decision-making process, _____(3) directly or through elected representatives. Democracy also allows for the _____(4) of individual rights and liberties. While democracy is not without its challenges, such as the need to balance competing interests and the risk of _____(5) movements, it remains one of the most widely embraced forms of government around the world.

SubQuestion No : 21

Q.21 Select the most appropriate option to fill in blank no. 1.

Ans
✔ 1. with
✘ 2. by
✘ 3. on
✘ 4. towards

Question ID : **264330151893**
Option 1 ID : **264330595190**
Option 2 ID : **264330595189**
Option 3 ID : **264330595187**
Option 4 ID : **264330595188**
Status : **Answered**
Chosen Option : **3**

Comprehension:

In the following passage, some words have been deleted. Read the passage carefully and select the most appropriate option to fill in each blank.

Democracy is a form of government where the power lies _____(1) the people. It is based on the principles of equality, freedom and the rule of law. In a democratic society, _____(2) have the right to participate in the decision-making process, _____(3) directly or through elected representatives. Democracy also allows for the _____(4) of individual rights and liberties. While democracy is not without its challenges, such as the need to balance competing interests and the risk of _____(5) movements, it remains one of the most widely embraced forms of government around the world.

SubQuestion No : 22

Q.22 Select the most appropriate option to fill in blank no. 2.

Ans
✘ 1. humans
✔ 2. citizens
✘ 3. lawyers
✘ 4. politicians

Question ID : **264330151894**
Option 1 ID : **264330595194**
Option 2 ID : **264330595192**
Option 3 ID : **264330595193**
Option 4 ID : **264330595191**
Status : **Answered**
Chosen Option : **2**

Comprehension:

In the following passage, some words have been deleted. Read the passage carefully and select the most appropriate option to fill in each blank.

Democracy is a form of government where the power lies _____(1) the people. It is based on the principles of equality, freedom and the rule of law. In a democratic society, _____(2) have the right to participate in the decision-making process, _____(3) directly or through elected representatives. Democracy also allows for the _____(4) of individual rights and liberties. While democracy is not without its challenges, such as the need to balance competing interests and the risk of _____(5) movements, it remains one of the most widely embraced forms of government around the world.

SubQuestion No : 23

Q.23 Select the most appropriate option to fill in blank no. 3.

Ans

✗ 1. neither

✗ 2. however

✗ 3. also

✓ 4. either

Question ID : **264330151895**
Option 1 ID : **264330595198**
Option 2 ID : **264330595197**
Option 3 ID : **264330595195**
Option 4 ID : **264330595196**
Status : **Answered**
Chosen Option : **4**

Comprehension:

In the following passage, some words have been deleted. Read the passage carefully and select the most appropriate option to fill in each blank.

Democracy is a form of government where the power lies _____(1) the people. It is based on the principles of equality, freedom and the rule of law. In a democratic society, _____(2) have the right to participate in the decision-making process, _____(3) directly or through elected representatives. Democracy also allows for the _____(4) of individual rights and liberties. While democracy is not without its challenges, such as the need to balance competing interests and the risk of _____(5) movements, it remains one of the most widely embraced forms of government around the world.

SubQuestion No : 24

Q.24 Select the most appropriate option to fill in blank no. 4.

Ans

✗ 1. diversion

✓ 2. protection

✗ 3. proscription

✗ 4. delimitation

Question ID : **264330151896**
Option 1 ID : **264330595202**
Option 2 ID : **264330595199**
Option 3 ID : **264330595201**
Option 4 ID : **264330595200**
Status : **Answered**
Chosen Option : **2**

Comprehension:

In the following passage, some words have been deleted. Read the passage carefully and select the most appropriate option to fill in each blank.

Democracy is a form of government where the power lies _____(1) the people. It is based on the principles of equality, freedom and the rule of law. In a democratic society, _____(2) have the right to participate in the decision-making process, _____(3) directly or through elected representatives. Democracy also allows for the _____(4) of individual rights and liberties. While democracy is not without its challenges, such as the need to balance competing interests and the risk of _____(5) movements, it remains one of the most widely embraced forms of government around the world.

SubQuestion No : 25

Q.25 Select the most appropriate option to fill in blank no. 5.

Ans

✗ 1. elitist

✗ 2. marginal

✗ 3. negligible

✓ 4. populist

Question ID : **264330151897**
Option 1 ID : **264330595203**
Option 2 ID : **264330595204**
Option 3 ID : **264330595205**
Option 4 ID : **264330595206**
Status : **Answered**
Chosen Option : **3**